Сафаров Г. 1010

Школьный этап всероссийской олимпиады школьников по географии
2020 – 2021 учебный год
10-11 КЛАСС
Тестовый тур

1. В организацию ОПЕК не входит:
1) Алжир; 2) Мексика; 3) Нигерия; г) Венесуэла.

2. Выберите государство, неотъемлемой частью которого является архипелаг Шпицберген:
1) Германия; 2) Норвегия; 3) Исландия; 4) Финляндия.

3. Что характерно для умеренного муссонного типа климата?
1) тёплая влажная зима и сухое лето;
2) тёплая зима и тёплое лето, осадки выпадают равномерно в течение года;
3) холодная малоснежная зима и тёплое дождливое лето;
4) холодная зима и холодное лето, осадки выпадают равномерно в течение года.

4. Выберите вариант, в котором присутствуют только страны-абсолютные монархии:
1) Великобритания, Дания, Испания;
2) ОАЭ, Катар, Оман;
3) Германия, Австрия, Индия;
4) США, Франция, Россия.

5. Выберите вариант, в котором присутствуют только страны монархии-княжества:
1) Япония, Люксембург, Ватикан;
2) Норвегия, Швеция, Дания;
3) Андорра, Монако, Лихтенштейн;
4) Марокко, Иордания, Саудовская Аравия.

6. Укажите регион-лидер по разведанным запасам нефти в мире:
1) Зарубежная Азия; 2) Латинская Америка; 3) Африка; 4) страны СНГ.

7. Укажите страну, относящуюся к лидерам по запасам медных руд:
1) Саудовская Аравия; 2) Чили; 3) Россия; 4) Гвинея.

8. Выберите государство, относящееся к лидерам по площади малопригодных земель:
1) Канада; 2) Россия; 3) Норвегия; 4) Алжир.

9. Вспомните экономический район, в котором больше всего республик в составе РФ, и найдите единственную страну, с которой он граничит:
1) Китай; 2) Монголия; 3) Казахстан; 4) Грузия; 5) Армения; 6) Финляндия.

10. Выберите вариант, в котором представлены государства-лидеры по гидроэнергетическим ресурсам:
1) Йемен, Иордания, Саудовская Аравия, Ливия;
2) Россия, США, Китай, Бразилия;
3) Швеция, Япония, Канада;
4) Португалия, Германия, Франция, Польша.

11.Какой ученый считается «отцом» теории дрейфа континентов:
1) Ньютон; 2) Вегенер; 3) Эйнштейн; 4) Агассиз

12. В возрастной структуре населения, какой из перечисленных стран доля детей наибольшая?
1) Гурция; 2) Польша; 3) Швеция; 4) Австралия.

13. Братья Бернардацци, Уптон С.И., Семенов Н.Н. – что объединяет эти имена?
1) это знаменитые на КМВ строители и архитекторы, 2) это известные на КМВ врачи, 3) это выдающиеся писатели Юга России.

14. В каком городе России выпускают троллейбусы:
1) Липецк; 2) Москва; 3) Энгельс; 4) Нижний Новгород.

1010

15. Ближе всего к высочайшей вершине, какого материка 23 сентября в полдень по Гринвичу Солнце находится в зените:
1) Евразия; 2) Африка; 3) Южная Америка; 4) Австралия

Теоретический тур
Задание 1. А) Установите соответствие: город Ставропольского края – его герб.
Б) Распределите города в порядке уменьшения их численности.

1.Пятигорск В	4.Георгиевск Б	А	Г
2.Кисловодск Г	5.Будёновск Е	Б	Д
3.Ессентуки А	6.Лермонтов Д	В	Е

Задание 2. Определите, каким странам соответствуют приведенные в таблице характеристики структуры занятости экономически активного населения (I – сельское хозяйство, лесное хозяйство и рыболовство; II – промышленность и строительство; III – сфера услуг). Бельгия, Болгария, Бурунди, Панама, Тунис.

I – Бурунди, Панама.
II – Болгария III – Тунис
IV – Бельгия

1010

Страна	Доля занятых, %		
	1	11	111
1.	92	3	5
2.	28	33	39
3.	13	48	49
4.	3	28	69
5.	1	14	75

Задание 3. Ниже представлены шесть известных достопримечательностей стран мира.

1) Определите эти достопримечательности, внесите номер фотографии в таблицу ниже, заполните графу «Местоположение», указав страну, материк, где находится объект.

2) Для каждой страны назовите ещё три достопримечательности, входящие в объекты Всемирного наследия ЮНЕСКО.



№ фото	Достопримечательности	Местоположение
	Оперный театр	Страна: Австралия, Сидней Материк: Австралия
	Пирамиды	Страна: Египет Материк: Африка
	Великая стена	Страна: Китай Материк: Евразия
	Статуя Свободы	Страна: США, Нью-Йорк Материк: Северная Америка

1010

	Статуя Христа Искупителя	**Страна: Материк:** Бразилия, Южная Америка
	Эйфелева башня	**Страна: Материк:** Франция, Европа

9д

Задание 4. Определите субъект федерации X, основываясь на информации о некоторых соседях.

О первом	Близ границы с X, берет начало правый приток самой большой из рек, впадающей в самый большой внутренний водоем страны.
О втором	Главный город стоит на самом большом левом притоке реки самой обширной из стран, полностью лежащих в Европе
О третьем	Лидирует в России по добыче железной руды
О четвертом	Здесь находится самая северная АЭС в водосборном бассейне самого маленького моря России
О пятом	Здесь находится самый северный металлургический комбинат в водосборном бассейне Дона

Задание 5. На рисунке схематически изображены основные части четырех из двадцати крупнейших по водности речных систем мира (они обозначены буквами А—Г), относящихся к трем материкам. Звездочкой обозначен крупнейший город на главной реке. Масштаб изображений различается.

Сопоставьте рисунки с данными таблицы и заполните ее пустующие ячейки.

Впишите в соответствующие ячейки названия главных рек каждой из речных систем (в некоторых случаях это не одна, а две главных реки), а также названия двух важнейших показателей, которые характеризуют речные системы. Укажите единицы измерения этих показателей.

Впишите в таблицу названия обозначенных звездочками городов.

Рисунок	Название реки / рек	Показатель X, ед.измерения	Показатель Y, ед.измерения	Город
А		Более 200 000	Более 7 000 000	
Б		20 000	2 600 000	
В		17 000	3 200 000	
Г		13 000		

Примечание: в таблице приведены округленные значения показателей.

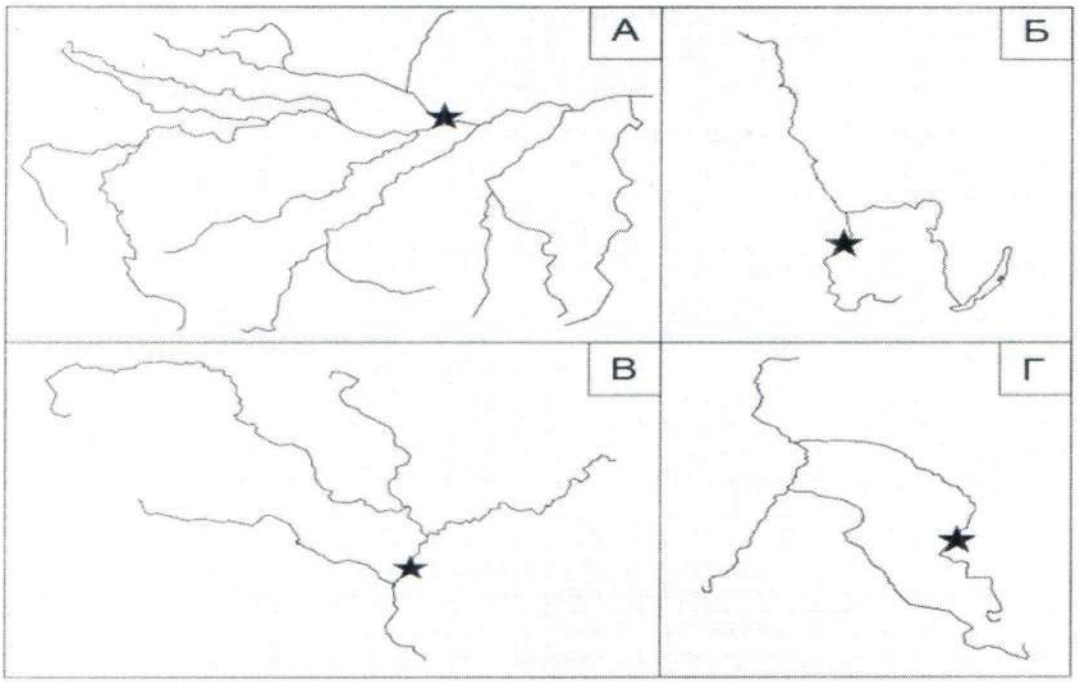

№3 б) Австралия - Большой барьерный риф, Национальный парк Какаду, Озера Уиландра;
Египет - Древние Фивы, Исламский Каир, Памятники Нубии
Китай - Дворец Мукдэн, Мавзолей первого императора династии Чинь, Гора Тайшань.
США - Национальный парк Меса-Верде, Йеллоустонский национальный парк, Национальный парк Гранд-Каньон.
Бразилия - Город Ору-Перту, Исторический центр города Олинда, Санта-Ана
Франция - Ансамбль Мон-Сен-Мишель, Собор Шатр, Версальский дворец.

Test	1	2	3	4	5	
138	8	5	9	–	–	

350

Рябов И. 1009

Школьный этап всероссийской олимпиады школьников по географии
2020 – 2021 учебный год
10-11 КЛАСС
Тестовый тур

1. В организацию ОПЕК не входит:
1) Алжир; 2) Мексика; 3) Нигерия; г) Венесуэла.

2. Выберите государство, неотъемлемой частью которого является архипелаг Шпицберген:
1) Германия; 2) Норвегия; 3) Исландия; 4) Финляндия.

3. Что характерно для умеренного муссонного типа климата?
1) тёплая влажная зима и сухое лето;
2) тёплая зима и тёплое лето, осадки выпадают равномерно в течение года;
3) холодная малоснежная зима и тёплое дождливое лето;
4) холодная зима и холодное лето, осадки выпадают равномерно в течение года.

4. Выберите вариант, в котором присутствуют только страны-абсолютные монархии:
1) Великобритания, Дания, Испания;
2) ОАЭ, Катар, Оман;
3) Германия, Австрия, Индия;
4) США, Франция, Россия.

5. Выберите вариант, в котором присутствуют только страны монархии-княжества:
1) Япония, Люксембург, Ватикан;
2) Норвегия, Швеция, Дания;
3) Андорра, Монако, Лихтенштейн;
4) Марокко, Иордания, Саудовская Аравия.

6. Укажите регион-лидер по разведанным запасам нефти в мире:
1) Зарубежная Азия; 2) Латинская Америка; 3) Африка; 4) страны СНГ.

7. Укажите страну, относящуюся к лидерам по запасам медных руд:
1) Саудовская Аравия; 2) Чили; 3) Россия; 4) Гвинея.

8. Выберите государство, относящееся к лидерам по площади малопригодных земель:
1) Канада; 2) Россия; 3) Норвегия; 4) Алжир.

9. Вспомните экономический район, в котором больше всего республик в составе РФ, и найдите единственную страну, с которой он граничит:
1) Китай; 2) Монголия; 3) Казахстан; 4) Грузия; 5) Армения; 6) Финляндия.

10. Выберите вариант, в котором представлены государства-лидеры по гидроэнергетическим ресурсам:
1) Йемен, Иордания, Саудовская Аравия, Ливия;
2) Россия, США, Китай, Бразилия;
3) Швеция, Япония, Канада;
4) Португалия, Германия, Франция, Польша.

11.Какой ученый считается «отцом» теории дрейфа континентов:
1) Ньютон; 2) Вегенер; 3) Эйнштейн; 4) Агассиз

12. В возрастной структуре населения, какой из перечисленных стран доля детей наибольшая?
1) Турция; 2) Польша; 3) Швеция; 4) Австралия.

13. Братья Бернардацци, Уптон С.И., Семенов Н.Н. – что объединяет эти имена?
1) это знаменитые на КМВ строители и архитекторы, 2) это известные на КМВ врачи, 3) это выдающиеся писатели Юга России.

14. В каком городе России выпускают троллейбусы:
1) Липецк; 2) Москва; 3) Энгельс; 4) Нижний Новгород.

148

15. Ближе всего к высочайшей вершине, какого материка 23 сентября в полдень по Гринвичу Солнце находится в зените:

1) Евразия; 2) Африка; 3) Южная Америка; 4) Австралия

Теоретический тур

Задание 1. А) Установите соответствие: город Ставропольского края – его герб.

Б) Распределите города в порядке уменьшения их численности.

1.Пятигорск В	4.Георгиевск Б	А	Г
2.Кисловодск Г	5.Будёновск Е	Б	Д
3.Ессентуки А	6.Лермонтов Д	В	Е

Б) 213456

Задание 2. Определите, каким странам соответствуют приведенные в таблице характеристики структуры занятости экономически активного населения (I – сельское хозяйство, лесное хозяйство и рыболовство; II – промышленность и строительство; III – сфера услуг). Бельгия, Болгария, Бурунди, Панама, Тунис.

Страна	Доля занятых, %		
	1	11	111
1. Бурунди	92	3	5
2. Болгария	28	33	39
3. Бельгия	13	48	49
4. Панама	3	28	69
5. Тунис	1	14	75

58

Задание 3. Ниже представлены шесть известных достопримечательностей стран мира.

1) Определите эти достопримечательности, внесите номер фотографии в таблицу ниже, заполните графу «Местоположение», указав страну, материк, где находится объект.

2) Для каждой страны назовите ещё три достопримечательности, входящие в объекты Всемирного наследия ЮНЕСКО.



№ фото	Достопримечательности	Местоположение
	Оперный театр	Страна: Сидней, Австралия Материк: Евразия
	Пирамиды	Страна: Египет Материк: Евразия
	Великая стена	Страна: Китай Материк: Евразия
	Статуя Свободы	Страна: США Материк: Северная Америка

	Статуя Христа Искупителя	**Страна: Материк:** Бразилия Северная Америка
	Эйфелева башня	**Страна: Материк:** Франция Евразия

Задание 4. Определите субъект федерации X, основываясь на информации о некоторых соседях.

О первом	Близ границы с X, берет начало правый приток самой большой из рек, впадающей в самый большой внутренний водоем страны. Орл.об.
О втором	Главный город стоит на самом большом левом притоке реки самой обширной из стран, полностью лежащих в Европе
О третьем	Лидирует в России по добыче железной руды
О четвертом	Здесь находится самая северная АЭС в водосборном бассейне самого маленького моря России Мурманская обл.
О пятом	Здесь находится самый северный металлургический комбинат в водосборном бассейне Дона Липецк обл.

Задание 5. На рисунке схематически изображены основные части четырех из двадцати крупнейших по водности речных систем мира (они обозначены буквами А—Г), относящихся к трем материкам. Звездочкой обозначен крупнейший город на главной реке. Масштаб изображений различается.

Сопоставьте рисунки с данными таблицы и заполните ее пустующие ячейки.

Впишите в соответствующие ячейки названия главных рек каждой из речных систем (в некоторых случаях это не одна, а две главных реки), а также названия двух важнейших показателей, которые характеризуют речные системы. Укажите единицы измерения этих показателей.

Впишите в таблицу названия обозначенных звездочками городов.

Рисунок	Название реки / рек	Показатель X, ед.измерения длина	Показатель Y, ед.измерения площадь	Город
А	Амазонка	Более 200 000	Более 7 000 000	
Б		20 000	2 600 000	
В		17 000	3 200 000	
Г	Обь	13 000		

Примечание: в таблице приведены округленные значения показателей.

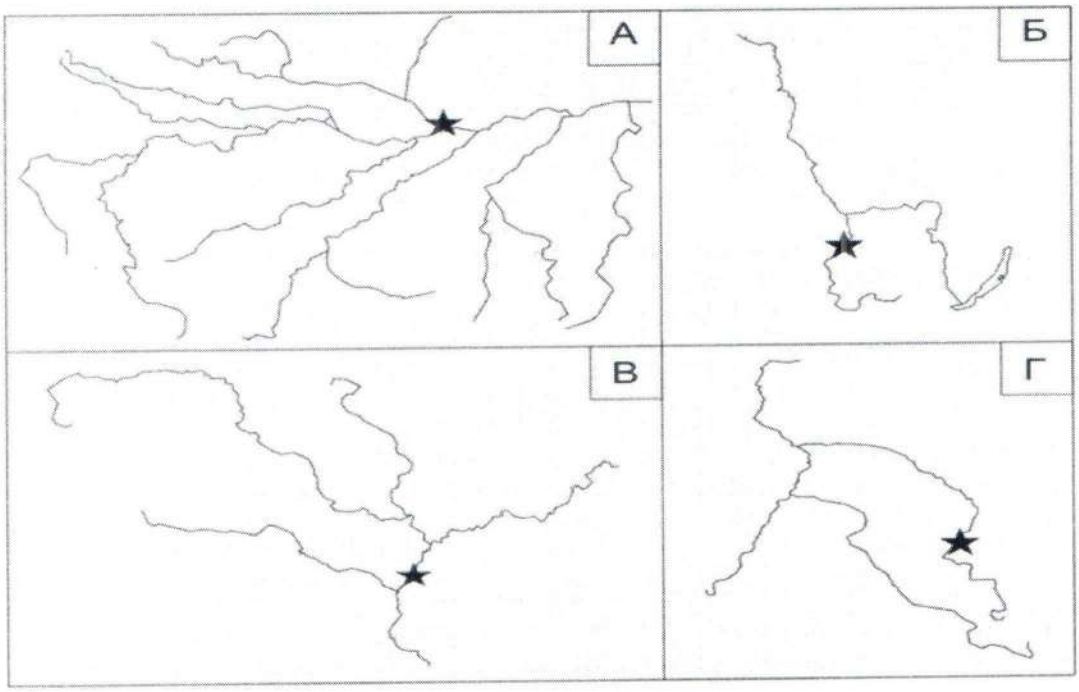

Тест	1	2	3	4	5
14	8	5	4,5	3	3

~~42б~~

37,5

Переслово, Анаст. 1008

Школьный этап всероссийской олимпиады школьников по географии
2020 – 2021 учебный год
10-11 КЛАСС
Тестовый тур

1. В организацию ОПЕК не входит:
1) Алжир; 2) Мексика; 3) Нигерия; г) Венесуэла.

2. Выберите государство, неотъемлемой частью которого является архипелаг Шпицберген:
1) Германия; 2) Норвегия; 3) Исландия; 4) Финляндия.

3. Что характерно для умеренного муссонного типа климата?
1) тёплая влажная зима и сухое лето;
2) тёплая зима и тёплое лето, осадки выпадают равномерно в течение года;
3) холодная малоснежная зима и тёплое дождливое лето;
4) холодная зима и холодное лето, осадки выпадают равномерно в течение года.

4. Выберите вариант, в котором присутствуют только страны-абсолютные монархии:
1) Великобритания, Дания, Испания;
2) ОАЭ, Катар, Оман;
3) Германия, Австрия, Индия;
4) США, Франция, Россия.

5. Выберите вариант, в котором присутствуют только страны монархии-княжества:
1) Япония, Люксембург, Ватикан;
2) Норвегия, Швеция, Дания;
3) Андорра, Монако, Лихтенштейн;
4) Марокко, Иордания, Саудовская Аравия.

6. Укажите регион-лидер по разведанным запасам нефти в мире:
1) Зарубежная Азия; 2) Латинская Америка; 3) Африка; 4) страны СНГ.

7. Укажите страну, относящуюся к лидерам по запасам медных руд:
1) Саудовская Аравия; 2) Чили; 3) Россия; 4) Гвинея.

8. Выберите государство, относящееся к лидерам по площади малопригодных земель:
1) Канада; 2) Россия; 3) Норвегия; 4) Алжир.

9. Вспомните экономический район, в котором больше всего республик в составе РФ, и найдите единственную страну, с которой он граничит:
1) Китай; 2) Монголия; 3) Казахстан; 4) Грузия; 5) Армения; 6) Финляндия.

10. Выберите вариант, в котором представлены государства-лидеры по гидроэнергетическим ресурсам:
1) Йемен, Иордания, Саудовская Аравия, Ливия;
2) Россия, США, Китай, Бразилия;
3) Швеция, Япония, Канада;
4) Португалия, Германия, Франция, Польша.

11.Какой ученый считается «отцом» теории дрейфа континентов:
1) Ньютон; 2) Вегенер; 3) Эйнштейн; 4) Агассиз

12. В возрастной структуре населения, какой из перечисленных стран доля детей наибольшая?
1) Турция; 2) Польша; 3) Швеция; 4) Австралия.

13. Братья Бернардацци, Уптон С.И., Семенов Н.Н. – что объединяет эти имена?
1) это знаменитые на КМВ строители и архитекторы, 2) это известные на КМВ врачи, 3) это выдающиеся писатели Юга России.

14. В каком городе России выпускают троллейбусы:
1) Липецк; 2) Москва; 3) Энгельс; 4) Нижний Новгород.

1008

15. Ближе всего к высочайшей вершине, какого материка 23 сентября в полдень по Гринвичу Солнце находится в зените:
1) Евразия; 2) Африка; 3) Южная Америка; 4) Австралия

Теоретический тур
Задание 1. А) Установите соответствие: город Ставропольского края – его герб.
Б) Распределите города в порядке уменьшения их численности.

1.Пятигорск	4.Георгиевск	А	Г
2.Кисловодск	5.Будёновск	Б	Д
3.Ессентуки	6.Лермонтов	В	Е

Задание 2. Определите, каким странам соответствуют приведенные в таблице характеристики структуры занятости экономически активного населения (I – сельское хозяйство, лесное хозяйство и рыболовство; II – промышленность и строительство; III – сфера услуг). Бельгия, Болгария, Бурунди, Панама, Тунис.

1008

Страна	Доля занятых, %		
	1	11	111
1. Бурунди	92	3	5
2. Болгария	28	33	39
3. Беларусь	13	48	49
4. Тунис	3	28	69
5. Панама	1	14	75

5б

Задание 3. Ниже представлены шесть известных достопримечательностей стран мира.

1) Определите эти достопримечательности, внесите номер фотографии в таблицу ниже, заполните графу «Местоположение», указав страну, материк, где находится объект.

2) Для каждой страны назовите ещё три достопримечательности, входящие в объекты Всемирного наследия ЮНЕСКО.



№ фото	Достопримечательности	Местоположение
6	**Оперный театр**	**Страна:** Австралия **Материк:** Австралия
4	**Пирамиды**	**Страна:** Египет **Материк:** Африка
3	**Великая стена**	**Страна:** Китай **Материк:** Евразия
2	**Статуя Свободы**	**Страна:** США **Материк:** Северная Америка

2) Франция Лувр

1008

5	**Статуя Христа Искупителя**	**Страна: Материк:** Южная Америка Бразилия
1	Эйфелева башня	**Страна: Материк:** Евразия Франция

Задание 4. Определите субъект федерации X, основываясь на информации о некоторых соседях.

О первом	Близ границы с X, берет начало правый приток самой большой из рек, впадающей в самый большой внутренний водоем страны Ярославская
О втором	Главный город стоит на самом большом левом притоке реки самой обширной из стран, полностью лежащих в Европе
О третьем	Лидирует в России по добыче железной руды Белгор.
О четвертом Санкт-Петербург	Здесь находится самая северная АЭС в водосборном бассейне самого маленького моря России Воронеж.
О пятом	Здесь находится самый северный металлургический комбинат в водосборном бассейне Дона

Задание 5. На рисунке схематически изображены основные части четырех из двадцати крупнейших по водности речных систем мира (они обозначены буквами А—Г), относящихся к трем материкам. Звездочкой обозначен крупнейший город на главной реке. Масштаб изображений различается.

Сопоставьте рисунки с данными таблицы и заполните ее пустующие ячейки.

Впишите в соответствующие ячейки названия главных рек каждой из речных систем (в некоторых случаях это не одна, а две главных реки), а также названия двух важнейших показателей, которые характеризуют речные системы. Укажите единицы измерения этих показателей.

Впишите в таблицу названия обозначенных звездочками городов.

Рисунок	Название реки / рек	Показатель X, ед.измерения	Показатель Y, ед.измерения	Город
А	Амазонка	Более 200 000	Более 7 000 000	
Б	Енисей	20 000	2 600 000	
В	Волга	17 000	3 200 000	
Г	Обь	13 000		

Примечание: в таблице приведены округленные значения показателей.

90

30

30

415

1008

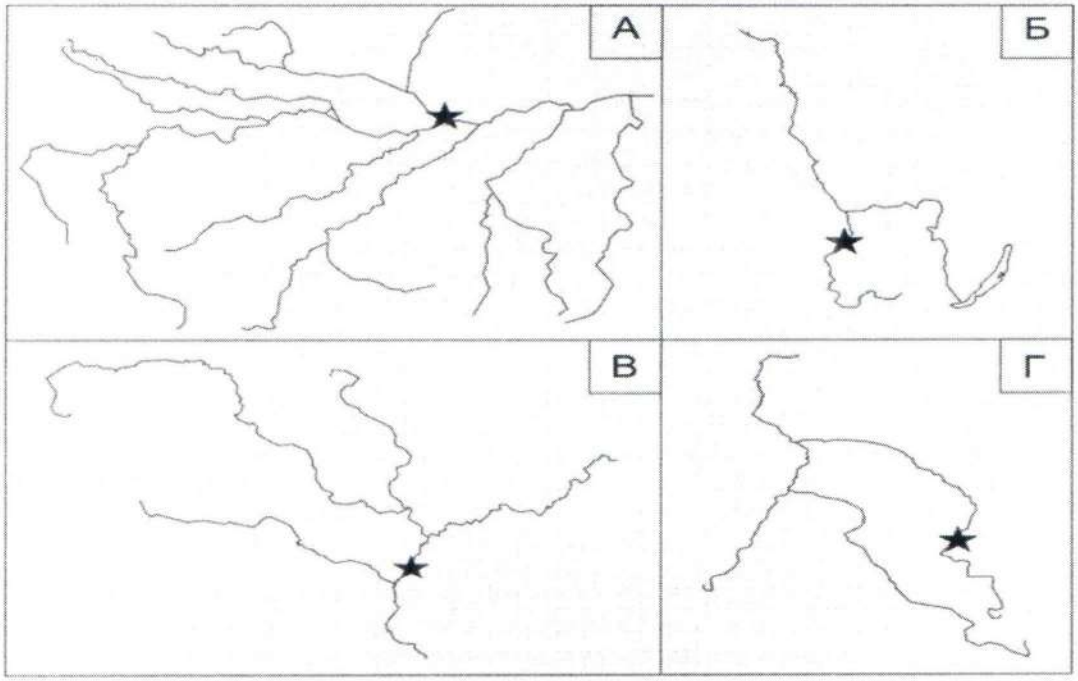

Гео	1	2	3	4	5
13	8	5	4,5	3	3

36,5

Триус К. 910

Школьный этап всероссийской олимпиады школьников по географии
2020 – 2021 учебный год
9 КЛАСС
Тестовый тур

1.Какой из указанных субъектов РФ не специализируется на добыче угля?

а) Республика Коми б) Красноярский край
в) Республика Саха (Якутия) г) Ростовская область д) Свердловская область

2.Какие из перечисленных архипелагов островов являются территорией Российской Федерации?

а) архипелаг Шпицберген б) архипелаг Северная Земля
в) Алеутские острова г) Марианские острова

3.Какая территория из перечисленных расположена севернее остальных?

а) Алданское нагорье. в) Вилюйское плато.
б) Анабарское плато. г) Патомское нагорье.

4. Какая пустыня расположена в Африке?

а) Гибсона. в) Ордос.
б) Карру. г) Сонора.

5. Что иллюстрирует рисунок?

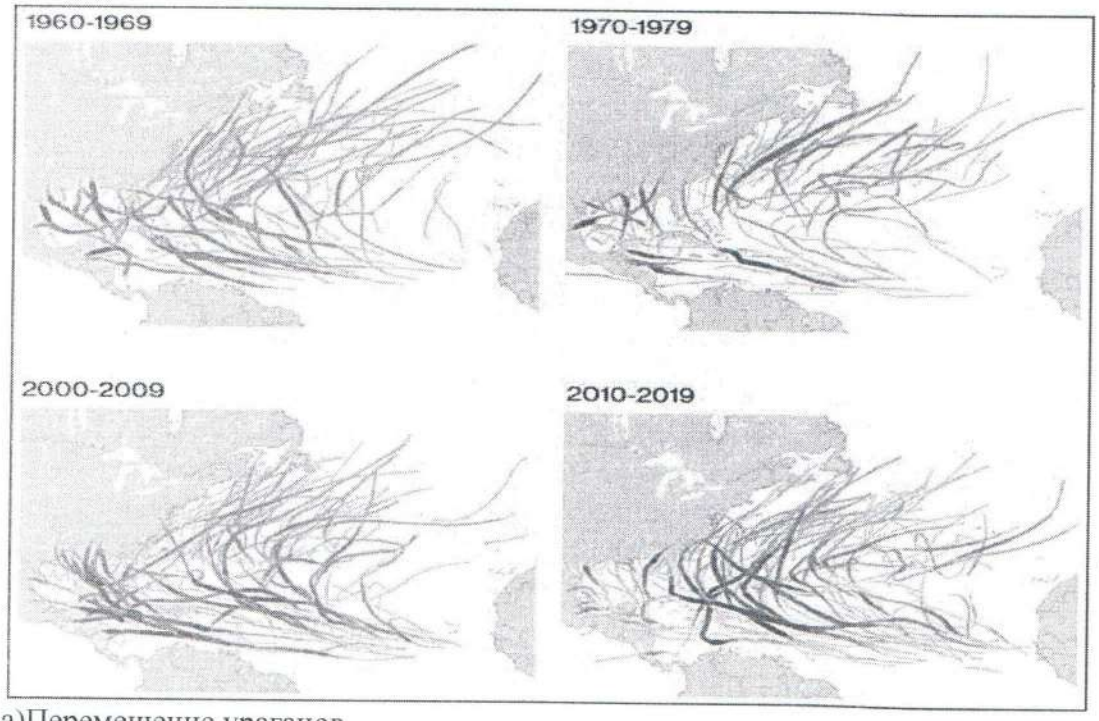

а)Перемещение ураганов.
б) Сезонные миграции птиц.
в) Следы нефтяного загрязнения.
г) Следы радиационного загрязнения

6. Выберите нижегородские народные промыслы:

а) Дымковская игрушка; б) Казаковская филигрань; в)Городецкая роспись;
г) Гжель; д) Хохлома

7. Определи субъект РФ, соседа Ставропольского края. Заполни пропуски:

В республике насчитывается несколько десятков народов. Для неё характерны максимальные в России показатели естественного прироста населения. Столица -

Грозный
Дагестан - крупнейший порт на Каспийском озере.
Это республика Дагестан.

8.Выберите верную пару: «современное название города - старое название города»

а) Балтийск - Нойхаузен.
в) Ногинск - Загорск.
б) Кемерово - Новошахтинск.
г) Чаплыгин - Раненбург.

9.Братья Бернардацци, Уптон С.И., Семенов Н.Н. – что объединяет эти имена?

а) это знаменитые на КМВ строители и архитекторы, б) это известные на КМВ врачи, в) это выдающиеся писатели Юга России.

10.Какие изолинии называют изотахами?

а) Изолинии, соединяющие точки с одинаковым годовым количеством осадков.
б) Изолинии, соединяющие точки с одинаковой относительной влажностью воздуха.
в) Изолинии, соединяющие точки с одинаковой скоростью ветра.
г) Изолинии, соединяющие точки с одинаковой солёностью морской воды.

11.По какому азимуту нужно идти к мельнице?

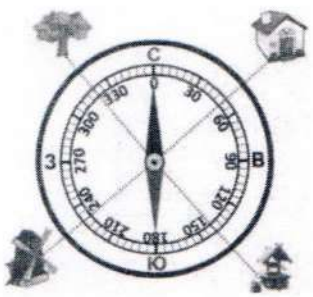

А-230°
Б-50°
В - 320°
Г - 140°

12. Установите соответствие:

1 Афанасий Никитин	А. Доказательство шарообразности Земли (наблюдения затмений)
2. С.П. Крашенинников	Б. Путешествие в Индию, «Хождение за три моря»
3. Аристотель	В. «Описание Земли Камчатки»
4. Птолемей	Г. Описание Памира, муссонов Индии, полезных растений Китая
5. Марко Поло	Д. Открытие берегов Северной Америки
6. Дж. Кабот	Е. «География» в 8 томах. Первая настоящая карта

13. На языках какой языковой семьи разговаривает большая часть населения России?

а) алтайской;
б) индоевропейской;
в) уральской;
г) кавказской.

14. На материке Евразия велики колебания высот. Разница между впадиной Мёртвого моря и самой высокой вершиной Гималаев:

А) более 9 000 м; Б) более 12 000 м; В) более 5 000 м; Г) более 10 000 м.

15. Выберите вариант, в котором все объекты географического положения относятся к России и расположены в одном океане.

а) Белое море, Обская губа, остров Врангеля, полуостров Камчатка
б) Финский залив, мыс Флигели, Балтийское море, Песчаная коса
в) пролив Лаперуза, остров Сахалин, Берингово море, Командорские острова
г) Керченский пролив, Крымский полуостров, Азовское море, остров Ратманова

Теоретический тур

Задание 1. А) Установите соответствие: город Ставропольского края – его герб.

Б) Распределите города в порядке уменьшения их численности.

1.Пятигорск В	4.Георгиевск Б	 А	 Г
2.Кисловодск А Б Г	5.Будёновск Г Е	 Б	 Д
3.Ессентуки Ж А	6.Лермонтов Д	 В	 Е

6б

б) 1 ~~2~~ 2 3 6 4 5

Задание 2. Установите соответствие между озерами и некоторыми фактами, связанными с ними:

1) Ханка Б	А) Это озеро находится в Новгородской области России. Площадь озера составляет 982 квадратных километра, но в зависимости от уровня воды может варьироваться. Его максимальная глубина может достигать до 10 метров. С названием этого озера связано множество легенд, среди которых есть миф о скифских князьях Русе и Словене.
2) Ладожское Г	Б) Это озеро находится на Дальнем Востоке России и граничит с Китаем. Наибольшая глубина озера около 11 метров, а площадь – 4 070 квадратных километров. Благодаря своему месторасположению, привлекает большое количество туристов,

	которые могут ознакомиться с культурой и обычаями сразу двух стран. В водах этого озера обитает около 75 видов рыб, и даже некоторые из них занесены в красную книгу РФ.
3) Байкал	В) Самое большое озеро, не только в России, но и на всей Земле. Оно расположено на границе Азии и Европы и омывает берега 5 стран. Воды этого озера солёные. Согласно одной из теорий, получило своё название благодаря древним племенам, живших на юго-западе побережья.
4) Ильмень	Г) Это озеро расположено на территории Республики Карелия, Вологодской и Ленинградской областей. Площадь озера около 9 700 квадратных километров, при наибольшей глубине – 127 метров. Славится чистой водой и множеством исторических памятников, расположенных на его берегах.
5) Онежское	Д) Самое глубокое озеро, находится в Восточной Сибири и является крупнейшим резервуаром пресной воды (90% запасов пресной воды России). Воды этого озера необыкновенно чисты и прозрачны, а в давние времена – считались целебными.
6) Каспийское	Е) Это озеро расположено на территории Ленинградской области и Республики Карелия. Его площадь составляет более 17,6 тысяч квадратных километров, а наибольшая глубина – 230 метров, оно является одним из самых крупных пресноводных озёр в Европе. В него впадает 35 рек, а берёт своё начало – Нева. В нём водится около 60 видов рыб, половина которых имеет промышленное значение.

Задание 3. Ниже представлены шесть мировых достопримечательностей мира. Определите эти достопримечательности, внесите номер фотографии в таблицу ниже, заполните графу «Местоположение», указав страну, материк, где находится объект.



№ фото	Достопримечательности	Местоположение
6	Оперный театр	Страна: Австралия Материк: Австралия

4	Пирамиды	Страна: Египет Материк: Африка
3	Великая стена	Страна: Китай Материк: Евразия
2	Статуя Свободы	Страна: США Материк: Америка (Северная)
5	Статуя Христа Искупителя	~~Бразилия~~ Бразилия Страна: Материк: Южная Америка
1	Эйфелева башня	Франция Страна: Материк: Европа

9б

Задание 4. Выберите из списка народы, которые до сих пор ведут кочевой (полукочевой) образ жизни, то есть значительную часть года постоянно перемещаются на значительные расстояния. Какие отрасли хозяйства (скотоводство) требуют для каждого из этих народов существенных перемещений? Для оставшихся народов выберите отрасли, связывающие их с традиционным использованием местных земельных ресурсов территории.

Народы: башкиры, нганасаны, ненцы, шорцы, эвены, якуты

1) Нганасаны занимаются охотой на дикого оленя, водоплавающую птиц...
2) башкиры скотоводством
3) Ненцы охотятся на пушного зверя
4) шорцы охотятся, занимаются пчеловодством
5) эвены охотятся и занимаются скотоводством
6) якуты – скотоводство, разведение крупного рогатого скота.

6б

Тест	1	2	3	4
9	6	9	9	6

39 б.

Козьмин Р 905

Школьный этап всероссийской олимпиады школьников по географии
2020 – 2021 учебный год
9 КЛАСС
Тестовый тур

1.Какой из указанных субъектов РФ не специализируется на добыче угля?

а) Республика Коми б) Красноярский край
в) Республика Саха (Якутия) г) Ростовская область д) Свердловская область

2.Какие из перечисленных архипелагов островов являются территорией Российской Федерации?

а) архипелаг Шпицберген б) архипелаг Северная Земля
в) Алеутские острова г) Марианские острова

3.Какая территория из перечисленных расположена севернее остальных?

а) Алданское нагорье. в) Вилюйское плато.
б) Анабарское плато. г) Патомское нагорье.

4. Какая пустыня расположена в Африке?

а) Гибсона. в) Ордос.
б) Карру. г) Сонора.

5. Что иллюстрирует рисунок?

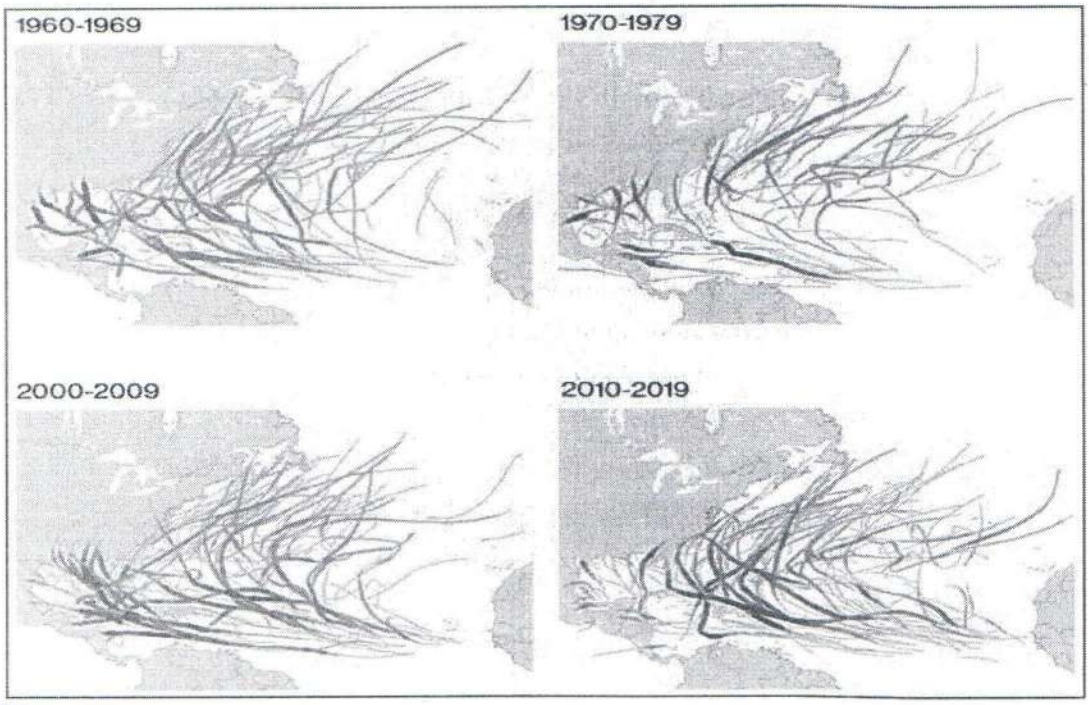

а) Перемещение ураганов.
б) Сезонные миграции птиц.
в) Следы нефтяного загрязнения.
г) Следы радиационного загрязнения

6. Выберите нижегородские народные промыслы:

а) Дымковская игрушка; б) Казаковская филигрань; в) Городецкая роспись;
г) Гжель; д) Хохлома

7. Определи субъект РФ, соседа Ставропольского края. Заполни пропуски:

В республике насчитывается несколько десятков народов. Для неё характерны максимальные в России показатели естественного прироста населения. Столица -

Черкесск - крупнейший порт на _____ озере.

Это республика Карачаево-Черкесия.

8.Выберите верную пару: «современное название города - старое название города»

а) Балтийск - Нойхаузен. в) Ногинск - Загорск.

б) Кемерово - Новошахтинск. г) Чаплыгин - Раненбург.

9.Братья Бернардацци, Уптон С.И., Семенов Н.Н. – что объединяет эти имена?

а) это знаменитые на КМВ строители и архитекторы, б) это известные на КМВ врачи, в) это выдающиеся писатели Юга России.

10.Какие изолинии называют изотахами?

а) Изолинии, соединяющие точки с одинаковым годовым количеством осадков.

б) Изолинии, соединяющие точки с одинаковой относительной влажностью воздуха.

в) Изолинии, соединяющие точки с одинаковой скоростью ветра.

г) Изолинии, соединяющие точки с одинаковой солёностью морской воды.

11.По какому азимуту нужно идти к мельнице?

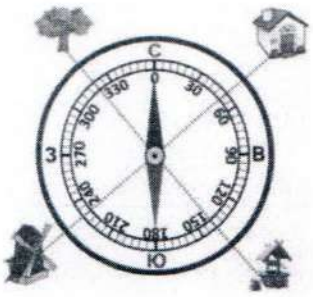

А-230°
Б-50°
В - 320°
Г - 140°

12. Установите соответствие:

1 Афанасий Никитин	А. Доказательство шарообразности Земли (наблюдения затмений)
2. С.П. Крашенинников	Б. Путешествие в Индию, «Хождение за три моря»
3. Аристотель	В. «Описание Земли Камчатки»
4. Птолемей	Г. Описание Памира, муссонов Индии, полезных растений Китая
5. Марко Поло	Д. Открытие берегов Северной Америки
6. Дж. Кабот	Е. «География» в 8 томах. Первая настоящая карта

13. На языках какой языковой семьи разговаривает большая часть населения России?

а) алтайской; б) индоевропейской;

в) уральской; г) кавказской.

14. На материке Евразия велики колебания высот. Разница между впадиной Мёртвого моря и самой высокой вершиной Гималаев:

А) более 9 000 м; Б) более 12 000 м; В) более 5 000 м; Г) более 10 000 м.

15. Выберите вариант, в котором все объекты географического положения относятся к России и расположены в одном океане.

а) Белое море, Обская губа, остров Врангеля, полуостров Камчатка

б) Финский залив, мыс Флигели, Балтийское море, Песчаная коса

в) пролив Лаперуза, остров Сахалин, Берингово море, Командорские острова

г) Керченский пролив, Крымский полуостров, Азовское море, остров Ратманова

Теоретический тур

Задание 1. А) Установите соответствие: город Ставропольского края – его герб.

Б) Распределите города в порядке уменьшения их численности.

1.Пятигорск В	4.Георгиевск Б	 А	 Г
2.Кисловодск Д Е	5.Будёновск А	 Б	 Д
3.Ессентуки Г	6.Лермонтов Е Д	 В	 Е

5)

153426

Задание 2. Установите соответствие между озерами и некоторыми фактами, связанными с ними:

1) Ханка	А) Это озеро находится в Новгородской области России. Площадь озера составляет 982 квадратных километра, но в зависимости от уровня воды может варьироваться. Его максимальная глубина может достигать до 10 метров. С названием этого озера связано множество легенд, среди которых есть миф о скифских князьях Русе и Словене.
2) Ладожское	Б) Это озеро находится на Дальнем Востоке России и граничит с Китаем. Наибольшая глубина озера около 11 метров, а площадь – 4 070 квадратных километров. Благодаря своему месторасположению, привлекает большое количество туристов,

Г

	которые могут ознакомиться с культурой и обычаями сразу двух стран. В водах этого озера обитает около 75 видов рыб, и даже некоторые из них занесены в красную книгу РФ.
3) Байкал	В) Самое большое озеро, не только в России, но и на всей Земле. Оно расположено на границе Азии и Европы и омывает берега 5 стран. Воды этого озера солёные. Согласно одной из теорий, получило своё название благодаря древним племенам, живших на юго-западе побережья.
4) Ильмень	Г) Это озеро расположено на территории Республики Карелия, Вологодской и Ленинградской областей. Площадь озера около 9 700 квадратных километров, при наибольшей глубине – 127 метров. Славится чистой водой и множеством исторических памятников, расположенных на его берегах.
5) Онежское	Д) Самое глубокое озеро, находится в Восточной Сибири и является крупнейшим резервуаром пресной воды (90% запасов пресной воды России). Воды этого озера необыкновенно чисты и прозрачны, а в давние времена – считались целебными.
6) Каспийское	Е) Это озеро расположено на территории Ленинградской области и Республики Карелия. Его площадь составляет более 17,6 тысяч квадратных километров, а наибольшая глубина – 230 метров, оно является одним из самых крупных пресноводных озёр в Европе. В него впадает 35 рек, а берёт своё начало – Нева. В нём водится около 60 видов рыб, половина которых имеет промышленное значение.

Задание 3. Ниже представлены шесть мировых достопримечательностей мира. Определите эти достопримечательности, внесите номер фотографии в таблицу ниже, заполните графу «Местоположение», указав страну, материк, где находится объект.



№ фото	Достопримечательности	Местоположение
	Оперный театр 6	Страна: Австралия Материк: Австралия

	Пирамиды 4	Страна: египет Материк: африка
	Великая стена 3	Страна: Китай Материк: Евразия
	Статуя Свободы 2	Страна: США Материк: Северная Америка
	Статуя Христа Искупителя 5	Страна: Бразилия Материк: Южная Америка
	Эйфелева башня 1	Страна: Франция Материк: Евразия

Задание 4. Выберите из списка народы, которые до сих пор ведут кочевой (полукочевой) образ жизни, то есть значительную часть года постоянно перемещаются на значительные расстояния. Какие отрасли хозяйства требуют для каждого из этих народов существенных перемещений? Для оставшихся народов выберите отрасли, связывающие их с традиционным использованием местных земельных ресурсов территории.

Народы: башкиры, нганасаны, ненцы, шорцы, эвены, якуты

Кочевой:
Ненцы - оленеводство
Нганасаны
Шорцы
Полукочевой:
Якуты - скотоводство
Башкиры - земледелие
Эвены

3 б

ГОСТ	1	2	3	4
13	5	9	9	3

39 б

Алексеев А 901

Школьный этап всероссийской олимпиады школьников по географии
2020 – 2021 учебный год
9 КЛАСС
Тестовый тур

1.Какой из указанных субъектов РФ не специализируется на добыче угля?

а) Республика Коми б) Красноярский край
в) Республика Саха (Якутия) г) Ростовская область д) Свердловская область

2.Какие из перечисленных архипелагов островов являются территорией Российской Федерации?

а) архипелаг Шпицберген б) архипелаг Северная Земля
в) Алеутские острова г) Марианские острова

3.Какая территория из перечисленных расположена севернее остальных?

а) Алданское нагорье. в) Вилюйское плато.
б) Анабарское плато. г) Патомское нагорье.

4. Какая пустыня расположена в Африке?

а) Гибсона. в) Ордос.
б) Карру. г) Сонора.

5. Что иллюстрирует рисунок?

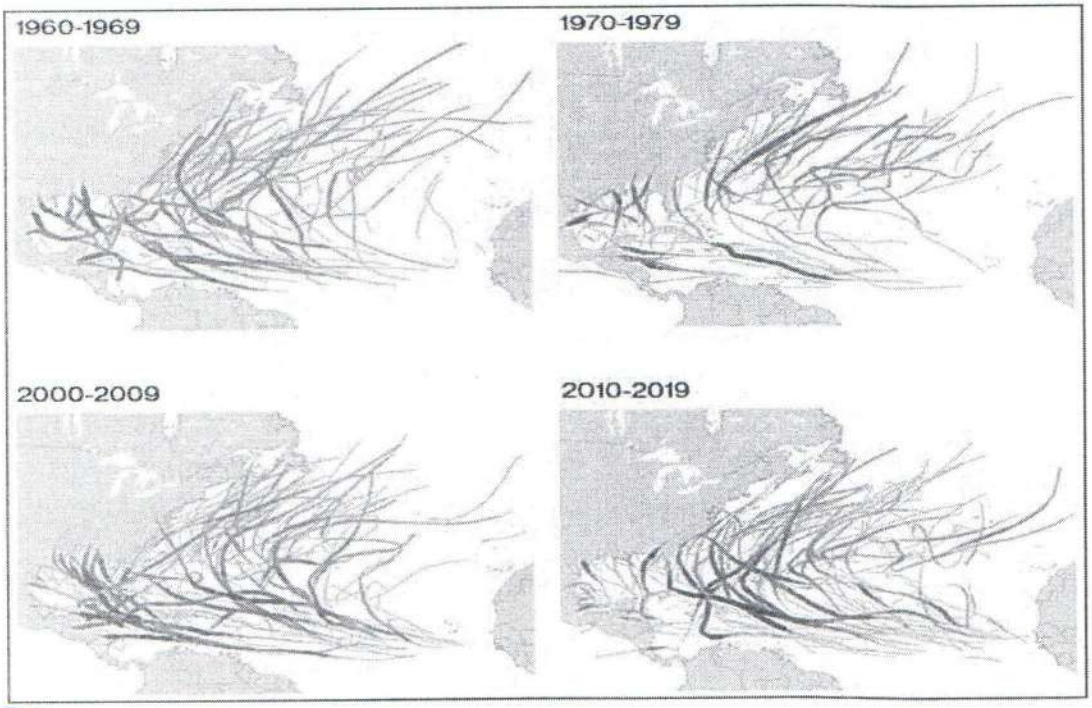

а) Перемещение ураганов.
б) Сезонные миграции птиц.
в) Следы нефтяного загрязнения.
г) Следы радиационного загрязнения

6. Выберите нижегородские народные промыслы:

а) Дымковская игрушка; б) Казаковская филигрань; в) Городецкая роспись;
г) Гжель; д) Хохлома

7. Определи субъект РФ, соседа Ставропольского края. Заполни пропуски:

В республике насчитывается несколько десятков народов. Для неё характерны максимальные в России показатели естественного прироста населения. Столица -

Махачкала - крупнейший порт на Каспийском озере.

Это республика Карачаево-Черкесская.

8.Выберите верную пару: «современное название города - старое название города»

а) Балтийск - Нойхаузен. в) Ногинск - Загорск.

б) Кемерово - Новошахтинск. г) Чаплыгин - Раненбург.

9.Братья Бернардацци, Уптон С.И., Семенов Н.Н. – что объединяет эти имена?

а) это знаменитые на КМВ строители и архитекторы, б) это известные на КМВ врачи, в) это выдающиеся писатели Юга России.

10.Какие изолинии называют изотахами?

а) Изолинии, соединяющие точки с одинаковым годовым количеством осадков.

б) Изолинии, соединяющие точки с одинаковой относительной влажностью воздуха.

в) Изолинии, соединяющие точки с одинаковой скоростью ветра.

г) Изолинии, соединяющие точки с одинаковой солёностью морской воды.

11.По какому азимуту нужно идти к мельнице?

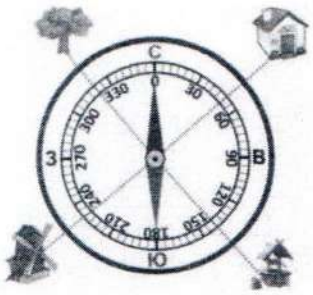

А-230°
Б-50°
В - 320°
Г - 140°

12. Установите соответствие:

1 Афанасий Никитин	А. Доказательство шарообразности Земли (наблюдения затмений)
2. С.П. Крашенинников	Б. Путешествие в Индию, «Хождение за три моря»
3. Аристотель	В. «Описание Земли Камчатки»
4. Птолемей	Г. Описание Памира, муссонов Индии, полезных растений Китая
5. Марко Поло	Д. Открытие берегов Северной Америки
6. Дж. Кабот	Е. «География» в 8 томах. Первая настоящая карта

13. На языках какой языковой семьи разговаривает большая часть населения России?

а) алтайской; б) индоевропейской;

в) уральской; г) кавказской.

14. На материке Евразия велики колебания высот. Разница между впадиной Мёртвого моря и самой высокой вершиной Гималаев:

А) более 9 000 м; Б) более 12 000 м; В) более 5 000 м; Г) более 10 000 м.

15. Выберите вариант, в котором все объекты географического положения относятся к России и расположены в одном океане.

а) Белое море, Обская губа, остров Врангеля, полуостров Камчатка

б) Финский залив, мыс Флигели, Балтийское море, Песчаная коса

в) пролив Лаперуза, остров Сахалин, Берингово море, Командорские острова

г) Керченский пролив, Крымский полуостров, Азовское море, остров Ратманова

1-В ; 3-А ; 4-Б ; 2-Г ; 5-Е ; 6-Д

Теоретический тур

Задание 1. А) Установите соответствие: город Ставропольского края – его герб.

Б) Распределите города в порядке уменьшения их численности.

1.Пятигорск	4.Георгиевск	А	Г
2.Кисловодск	5.Будёновск	Б	Д
3.Ессентуки	6.Лермонтов	В	Е

Задание 2. Установите соответствие между озерами и некоторыми фактами, связанными с ними:

1) Ханка	А) Это озеро находится в Новгородской области России. Площадь озера составляет 982 квадратных километра, но в зависимости от уровня воды может варьироваться. Его максимальная глубина может достигать до 10 метров. С названием этого озера связано множество легенд, среди которых есть миф о скифских князьях Русе и Словене.
2) Ладожское	Б) Это озеро находится на Дальнем Востоке России и граничит с Китаем. Наибольшая глубина озера около 11 метров, а площадь – 4 070 квадратных километров. Благодаря своему месторасположению, привлекает большое количество туристов,

1-Б ; 2-Е ; 3-Д ; 4-А ; 5-Г ; 6-В

	которые могут ознакомиться с культурой и обычаями сразу двух стран. В водах этого озера обитает около 75 видов рыб, и даже некоторые из них занесены в красную книгу РФ.
3) Байкал	В) Самое большое озеро, не только в России, но и на всей Земле. Оно расположено на границе Азии и Европы и омывает берега 5 стран. Воды этого озера солёные. Согласно одной из теорий, получило своё название благодаря древним племенам, живших на юго-западе побережья.
4) Ильмень	Г) Это озеро расположено на территории Республики Карелия, Вологодской и Ленинградской областей. Площадь озера около 9 700 квадратных километров, при наибольшей глубине – 127 метров. Славится чистой водой и множеством исторических памятников, расположенных на его берегах.
5) Онежское	Д) Самое глубокое озеро, находится в Восточной Сибири и является крупнейшим резервуаром пресной воды (90% запасов пресной воды России). Воды этого озера необыкновенно чисты и прозрачны, а в давние времена – считались целебными.
6) Каспийское	Е) Это озеро расположено на территории Ленинградской области и Республики Карелия. Его площадь составляет более 17,6 тысяч квадратных километров, а наибольшая глубина – 230 метров, оно является одним из самых крупных пресноводных озёр в Европе. В него впадает 35 рек, а берёт своё начало – Нева. В нём водится около 60 видов рыб, половина которых имеет промышленное значение.

Задание 3. Ниже представлены шесть мировых достопримечательностей мира. Определите эти достопримечательности, внесите номер фотографии в таблицу ниже, заполните графу «Местоположение», указав страну, материк, где находится объект.



№ фото	Достопримечательности	Местоположение
6	Оперный театр	Страна: Австралия Материк: Австралия

4	Пирамиды	Страна: Египет Материк: Африка
3	Великая стена	Страна: Китай Материк: Евразия
2	Статуя Свободы	Страна: США Материк: Северная Америка
5	Статуя Христа Искупителя	Бразилия, Южная Америка Страна: Материк:
1	Эйфелева башня	Франция, Евразия Страна: Материк:

9 б

Задание 4. Выберите из списка народы, которые до сих пор ведут кочевой (полукочевой) образ жизни, то есть значительную часть года постоянно перемещаются на значительные расстояния. Какие отрасли хозяйства требуют для каждого из этих народов существенных перемещений? Для оставшихся народов выберите отрасли, связывающие их с традиционным использованием местных земельных ресурсов территории.

Народы: башкиры, нганасаны, ненцы, шорцы, эвены, якуты

Кочевые: нганасаны, шорцы. Скотоводство

Оставшиеся народы занимаются рыболовством, выращиванием 3 б.

Тест	1	2	3	4	5
13	6	9	9	3	

40 б.

Чабаева С 9Г2

Школьный этап всероссийской олимпиады школьников по географии
2020 – 2021 учебный год
9 КЛАСС
Тестовый тур

1.Какой из указанных субъектов РФ не специализируется на добыче угля?

а) Республика Коми б) Красноярский край
в) Республика Саха (Якутия) г) Ростовская область д) Свердловская область

2.Какие из перечисленных архипелагов островов являются территорией Российской Федерации?

а) архипелаг Шпицберген б) архипелаг Северная Земля
в) Алеутские острова г) Марианские острова

3.Какая территория из перечисленных расположена севернее остальных?

а) Алданское нагорье. в) Вилюйское плато.
б) Анабарское плато. г) Патомское нагорье.

4. Какая пустыня расположена в Африке?

а) Гибсона. в) Ордос.
б) Карру. г) Сонора.

5. Что иллюстрирует рисунок?

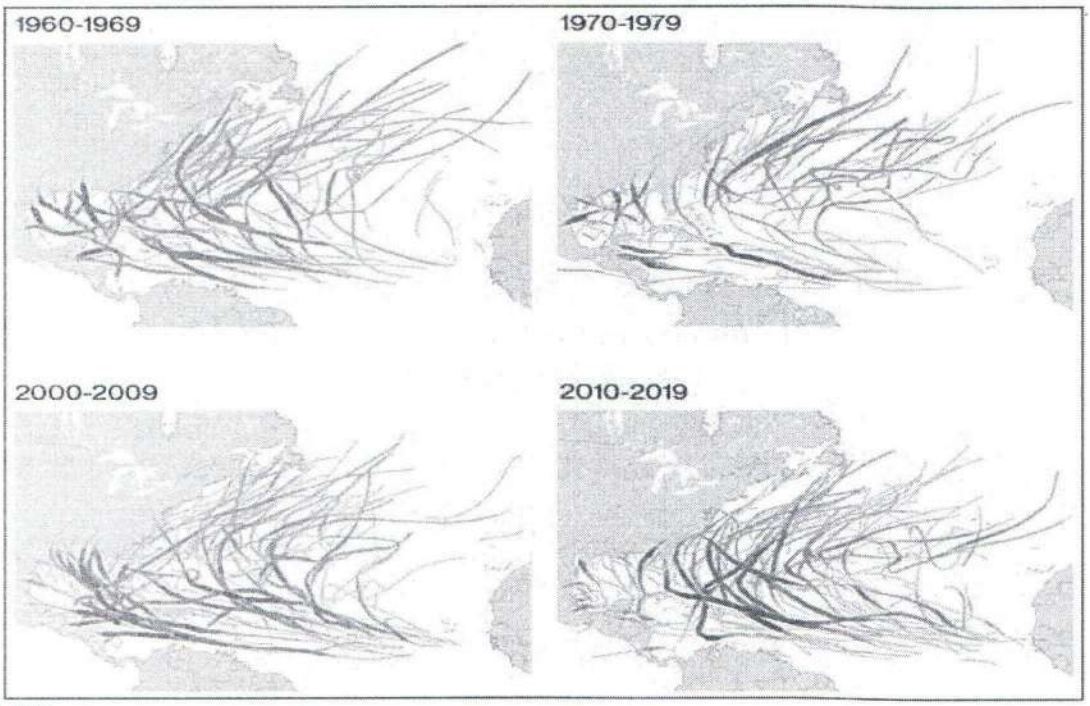

а)Перемещение ураганов.
б) Сезонные миграции птиц.
в) Следы нефтяного загрязнения.
г) Следы радиационного загрязнения

6. Выберите нижегородские народные промыслы:

а) Дымковская игрушка; б) Казаковская филигрань; в)Городецкая роспись;
г) Гжель; д) Хохлома

7. Определи субъект РФ, соседа Ставропольского края. Заполни пропуски:

В республике насчитывается несколько десятков народов. Для неё характерны максимальные в России показатели естественного прироста населения. Столица -

Махачкала крупнейший порт на Каспийском озере.
Это республика Дагестан.

8.Выберите верную пару: «современное название города - старое название города»

а) Балтийск - Нойхаузен.
в) Ногинск - Загорск.
б) Кемерово - Новошахтинск.
г) Чаплыгин - Раненбург.

9.Братья Бернардацци, Уптон С.И., Семенов Н.Н. – что объединяет эти имена?

а) это знаменитые на КМВ строители и архитекторы, б) это известные на КМВ врачи, в) это выдающиеся писатели Юга России.

10.Какие изолинии называют изотахами?

а) Изолинии, соединяющие точки с одинаковым годовым количеством осадков.
б) Изолинии, соединяющие точки с одинаковой относительной влажностью воздуха.
в) Изолинии, соединяющие точки с одинаковой скоростью ветра.
г) Изолинии, соединяющие точки с одинаковой солёностью морской воды.

11.По какому азимуту нужно идти к мельнице?

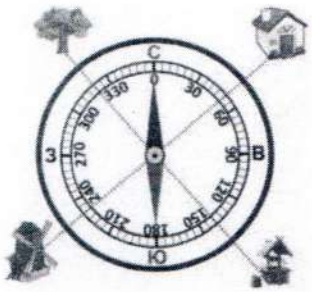

А-230°
Б-50°
В - 320°
Г - 140°

12. Установите соответствие:

1 Афанасий Никитин	А. Доказательство шарообразности Земли (наблюдения затмений)
2. С.П. Крашенинников	Б. Путешествие в Индию, «Хождение за три моря»
3. Аристотель	В. «Описание Земли Камчатки»
4. Птолемей	Г. Описание Памира, муссонов Индии, полезных растений Китая
5. Марко Поло	Д. Открытие берегов Северной Америки
6. Дж. Кабот	Е. «География» в 8 томах. Первая настоящая карта

13. На языках какой языковой семьи разговаривает большая часть населения России?

а) алтайской;
б) индоевропейской;
в) уральской;
г) кавказской.

14. На материке Евразия велики колебания высот. Разница между впадиной Мёртвого моря и самой высокой вершиной Гималаев:

А) более 9 000 м; Б) более 12 000 м; В) более 5 000 м; Г) более 10 000 м.

15. Выберите вариант, в котором все объекты географического положения относятся к России и расположены в одном океане.

а) Белое море, Обская губа, остров Врангеля, полуостров Камчатка
б) Финский залив, мыс Флигели, Балтийское море, Песчаная коса
в) пролив Лаперуза, остров Сахалин, Берингово море, Командорские острова
г) Керченский пролив, Крымский полуостров, Азовское море, остров Ратманова

Теоретический тур

Задание 1. А) Установите соответствие: город Ставропольского края – его герб.

Б) Распределите города в порядке уменьшения их численности.

1.Пятигорск В	4.Георгиевск Б	А	Г
2.Кисловодск Г	5.Будёновск Е	Б	Д
3.Ессентуки А	6.Лермонтов	В	 Е

6Д

Задание 2. Установите соответствие между озерами и некоторыми фактами, связанными с ними:

1) Ханка	4А) Это озеро находится в Новгородской области России. Площадь озера составляет 982 квадратных километра, но в зависимости от уровня воды может варьироваться. Его максимальная глубина может достигать до 10 метров. С названием этого озера связано множество легенд, среди которых есть миф о скифских князьях Русе и Словене.
2) Ладожское	1Б) Это озеро находится на Дальнем Востоке России и граничит с Китаем. Наибольшая глубина озера около 11 метров, а площадь – 4 070 квадратных километров. Благодаря своему месторасположению, привлекает большое количество туристов,

	которые могут ознакомиться с культурой и обычаями сразу двух стран. В водах этого озера обитает около 75 видов рыб, и даже некоторые из них занесены в красную книгу РФ.
3) Байкал	6 В) Самое большое озеро, не только в России, но и на всей Земле. Оно расположено на границе Азии и Европы и омывает берега 5 стран. Воды этого озера солёные. Согласно одной из теорий, получило своё название благодаря древним племенам, живших на юго-западе побережья.
4) Ильмень	5 Г) Это озеро расположено на территории Республики Карелия, Вологодской и Ленинградской областей. Площадь озера около 9 700 квадратных километров, при наибольшей глубине – 127 метров. Славится чистой водой и множеством исторических памятников, расположенных на его берегах.
5) Онежское	3 Д) Самое глубокое озеро, находится в Восточной Сибири и является крупнейшим резервуаром пресной воды (90% запасов пресной воды России). Воды этого озера необыкновенно чисты и прозрачны, а в давние времена – считались целебными.
6) Каспийское	2 Е) Это озеро расположено на территории Ленинградской области и Республики Карелия. Его площадь составляет более 17,6 тысяч квадратных километров, а наибольшая глубина – 230 метров, оно является одним из самых крупных пресноводных озёр в Европе. В него впадает 35 рек, а берёт своё начало – Нева. В нём водится около 60 видов рыб, половина которых имеет промышленное значение.

98

Задание 3. Ниже представлены шесть мировых достопримечательностей мира. Определите эти достопримечательности, внесите номер фотографии в таблицу ниже, заполните графу «Местоположение», указав страну, материк, где находится объект.



№ фото	Достопримечательности	Местоположение
6	Оперный театр	Страна: Австралия Материк: Австралия

4	Пирамиды	Страна: Египет Материк: Африка
3	Великая стена	Страна: Китай Материк: Евразия
2	Статуя Свободы	Страна: США Материк: Северная Америка
5	Статуя Христа Искупителя	Бразилия Страна: Материк: Южная Америка
		Страна: Материк:

95

Задание 4. Выберите из списка народы, которые до сих пор ведут кочевой (полукочевой) образ жизни, то есть значительную часть года постоянно перемещаются на значительные расстояния. Какие отрасли хозяйства требуют для каждого из этих народов существенных перемещений? Для оставшихся народов выберите отрасли, связывающие их с традиционным использованием местных земельных ресурсов территории.

Народы: башкиры, нганасаны, ненцы, шорцы, эвены, якуты

Ненцы - оленеводство. Оленям приходится добывать пищу, которой в тундре не хватает, поэтому они перемещаются по тундре.

Эвены - оленеводство, охота. Башкиры - бортничество. ~~Шорцы - оленеводство.~~ Нганасаны и якуты - охота, рыболовство. Ненцы - оленеводство.

Гос	1	2	3	4
11	6	9	9	2

378

805

Школьный этап всероссийской олимпиады школьников по географии
2020 – 2021 учебный год
8 КЛАСС

Дюкарева А.

Тестовый тур

1. Заросли сухих кустарников скрэбы – широко распространены в

А) Австралии
Б) Африке
В) Южной Америке
Г) Евразии

2. Какому азимуту соответствует направление на ВЮВ?

А) 135°
Б) 292,5°
В) 112,5°
Г) 202,5°

3. В какую геологическую эру произошли такие события как появление млекопитающих и птиц, появление первых цветковых растений, господство голосеменных растений и пресмыкающихся:

А) архейская
Б) протерозойская
В) палеозойская
Г) мезозойская

4. Бурный грязе-каменный поток, часто возникающий на окончании ледника при сильных ливнях или при интенсивном таянии снега, перемещающийся по склону и несущий с собой массу камней – это:

А) оползень
Б) наводнение
В) сель
Г) морена

5. Определите примерную высоту горы, если известно, что у ее подножия температура воздуха составила +16°С, а на ее вершине –8°С:

А) 1,3 км
Б) 4 км
В) 24 км
Г) 400 м

6. Явление, когда в каждый момент суток одинаковое время бывает лишь в точках, расположенных на одном меридиане, называется:

А) поясным временем
Б) декретным временем
В) местным временем
Г) летним временем

7.Основными полезными ископаемыми Ставропольского края являются:

А) железные руды, газ, каменный уголь
Б) строительные материалы, углеводородное сырьё, геотермальные воды
В) нефть, полиметаллические руды, медные руды
Г) урановые руды, золото, бокситы

805

8. Определите, о какой природной зоне Африки идет речь: здесь два сезона года – сухой зимний и влажный летний. Эта зона занимает около 40 % площади материка:

А) зона влажных экваториальных лесов
Б) зона саванн
В) зона тропических пустынь
Г) зона смешанных лесов

9. На материке Евразия велики колебания высот. Разница между впадиной Мёртвого моря и самой высокой вершиной Гималаев:

А) более 9 000 м; Б) более 12 000 м; В) более 5 000 м; Г) более 10 000 м.

10. Какое из утверждений о городах Ставропольского края верное?

А) в крае преобладают большие города
Б) в крае преобладают малые и средние города
В) города Будёновск, Пятигорск, Зеленокумск – самые большие города края
Г) в Ставропольском крае 22 города

11.Установите соответствие:

1 Афанасий Никитин	А. Доказательство шарообразности Земли (наблюдения затмений)
2. С.П. Крашенинников	Б. Путешествие в Индию, «Хождение за три моря»
3. Аристотель	В. «Описание Земли Камчатки»
4. Птолемей	Г. Описание Памира, муссонов Индии, полезных растений Китая
5. Марко Поло	Д. Открытие берегов Северной Америки
6. Дж. Кабот	Е. «География» в 8 томах. Первая настоящая карта

Ответ: 1-Б; 2-В; 3-А; 4-Е; 5-Г; 6-Д

12. Выход смятого в складки кристаллического фундамента на древних платформах называется…

А) горы Б) плиты В) щиты Г) грабены

13. Какая амплитуда колебаний температур верная?

А)5° Б) 10° В)12° Г)20°

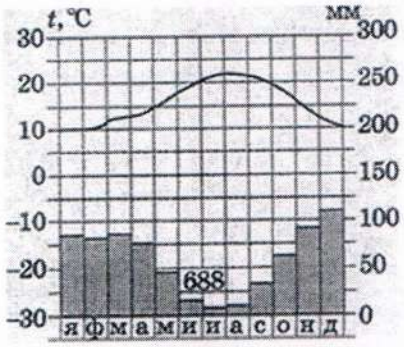

14. Путь «из варяг в греки» одна из древнейших «полос» расселения восточных славян. Какой из современных российских городов располагался на этом торговом пути?

А) Смоленск Б) Москва В) Ярославль Г) Владимир

15. Какой масштаб карты, если отрезок длиной 3 см соответствует расстоянию на местности 1,5 км:

А) 1:10 000; Б) 1: 50 000; В) 1: 450 000; Г) 1: 5 000 000 .

138

805

Теоретический тур

Задание 1. Установите соответствие: город Ставропольского края – его герб:

1.Пятигорск	4.Георгиевск	А	Г
2.Кисловодск	5.Будёновск	Б	Д
3.Ессентуки	6.Лермонтов	В	Е

Ответ: 1-В; 2-Д; 3-А; 4-Б; 5-Е; 6-Г

Задание 2

Запасы этого минерального природного ресурса в Калининградской области оцениваются более чем в 3 млрд. тонн, разведано 281 месторождения. Этот минеральный ресурс может служить и как топливо, и как минеральное удобрение. Добыча его ведется в основном в Нестеровском и Полесском районах области. Иногда его теплотворная способность достигает 5000 кКал, хотя с 1982 г. использование его как топлива запрещено законом. Этот ресурс поставляется во многие страны Европы. О каком ресурсе идет речь? Какие проблемы его добычи и использования Вы знаете? Нефть. Бурение скважин

Задание 3. Ниже представлены шесть мировых достопримечательностей мира. Определите эти достопримечательности, внесите номер фотографии в таблицу ниже, заполните графу «Местоположение», указав страну, материк, где находится объект.

805



№ фото	Достопримечательности	Местоположение
6	Оперный театр	Страна: Австралия Материк: Австралия
4	Пирамиды	Страна: Египет Материк: Африка
3	Великая стена	Страна: Китай Материк: Евразия
2	Статуя Свободы	Страна: США Материк: Северная Америка
5	Статуя Христа Искупителя	Бразилия Страна: Материк: Южная Америка
1	Эйфелева Башня	Франция Страна: Материк: Евразия

98

Задание 4. Прочитайте фрагмент газетной статьи:

«В 2008 году начато строительство нового нефтепровода «Восточная Сибирь – Тихий океан» (ВСТО). При его строительстве будут использоваться новейшие технологии, призванные обеспечить надежность его эксплуатации в условиях низких температур и вечной мерзлоты. Против прокладки трассы нефтепровода в непосредственной близости от озера Байкал возражали ученые-экологи, которые говорили о неизбежности экологической катастрофы в случае аварии на будущем нефтепроводе. Под их влиянием было принято решение об изменении трассы трубопровода».

Какие особенности территории, по которой должен был пройти нефтепровод, заставляли ученых говорить о высокой степени вероятности аварии на нефтепроводе и неизбежности в этом случае загрязнения вод озера Байкал? Укажите две особенности.

1) Из-за близости озера Байкал, почва мягче, значит, вероятностей аварии больше.
2) Сток нефти в воду.

6

Тест	1	2	3	4
13	4	0	9	6

32б

811

Петросян А

Школьный этап всероссийской олимпиады школьников по географии
2020 – 2021 учебный год
8 КЛАСС

Тестовый тур

1. Заросли сухих кустарников скрэбы – широко распространены в

А) Австралии
Б) Африке
В) Южной Америке
Г) Евразии

2. Какому азимуту соответствует направление на ВЮВ?

А) 135°
Б) 292,5°
В) 112,5°
Г) 202,5°

3. В какую геологическую эру произошли такие события как появление млекопитающих и птиц, появление первых цветковых растений, господство голосеменных растений и пресмыкающихся:

А) архейская
Б) протерозойская
В) палеозойская
Г) мезозойская

4. Бурный грязе-каменный поток, часто возникающий на окончании ледника при сильных ливнях или при интенсивном таянии снега, перемещающийся по склону и несущий с собой массу камней – это:

А) оползень
Б) наводнение
В) сель
Г) морена

5. Определите примерную высоту горы, если известно, что у ее подножия температура воздуха составила +16°С, а на ее вершине –8°С:

А) 1,3 км
Б) 4 км
В) 24 км
Г) 400 м

6. Явление, когда в каждый момент суток одинаковое время бывает лишь в точках, расположенных на одном меридиане, называется:

А) поясным временем
Б) декретным временем
В) местным временем
Г) летним временем

7.Основными полезными ископаемыми Ставропольского края являются:

А) железные руды, газ, каменный уголь
Б) строительные материалы, углеводородное сырьё, геотермальные воды
В) нефть, полиметаллические руды, медные руды
Г) урановые руды, золото, бокситы

8. Определите, о какой природной зоне Африки идет речь: здесь два сезона года – сухой зимний и влажный летний. Эта зона занимает около 40 % площади материка:

А) зона влажных экваториальных лесов
Б) зона саванн
В) зона тропических пустынь
Г) зона смешанных лесов

9. На материке Евразия велики колебания высот. Разница между впадиной Мёртвого моря и самой высокой вершиной Гималаев:

А) более 9 000 м; Б) более 12 000 м; В) более 5 000 м; Г) более 10 000 м.

10. Какое из утверждений о городах Ставропольского края верное?

А) в крае преобладают большие города
Б) в крае преобладают малые и средние города
В) города Будёновск, Пятигорск, Зеленокумск – самые большие города края
Г) в Ставропольском крае 22 города

11.Установите соответствие:

1 Афанасий Никитин	А. Доказательство шарообразности Земли (наблюдения затмений)
2. С.П. Крашенинников	Б. Путешествие в Индию, «Хождение за три моря»
3. Аристотель	В. «Описание Земли Камчатки»
4. Птолемей	Г. Описание Памира, муссонов Индии, полезных растений Китая
5. Марко Поло	Д. Открытие берегов Северной Америки
6. Дж. Кабот	Е. «География» в 8 томах. Первая настоящая карта

Ответ: 1)Б; 2)В; 3)Е; 4)А; 5)В; 6)Г.

12. Выход смятого в складки кристаллического фундамента на древних платформах называется…

А) горы Б) плиты В) щиты Г) грабены

13. Какая амплитуда колебаний температур верная?

А)5° Б) 10° В)12° Г)20°

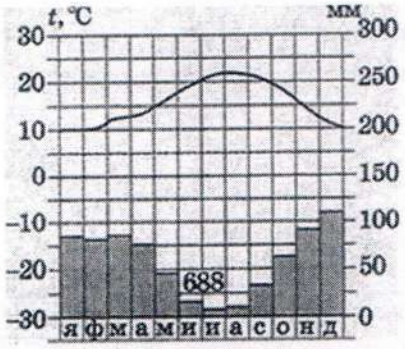

14. Путь «из варяг в греки» одна из древнейших «полос» расселения восточных славян. Какой из современных российских городов располагался на этом торговом пути?

А) Смоленск Б) Москва В) Ярославль Г) Владимир

15. Какой масштаб карты, если отрезок длиной 3 см соответствует расстоянию на местности 1,5 км:

А) 1:10 000; Б) 1: 50 000; В) 1: 450 000; Г) 1: 5 000 000 .

811

Теоретический тур

Задание 1. Установите соответствие: город Ставропольского края – его герб:

1.Пятигорск	4.Георгиевск	А	Г
2.Кисловодск	5.Будёновск	Б	Д
3.Ессентуки	6.Лермонтов	 В	Е

Ответ: 1)В; 2)Г; 3)А; 4)Б; 5)Е; 6)Д.

Задание 2

Запасы этого минерального природного ресурса в Калининградской области оцениваются более чем в 3 млрд. тонн, разведано 281 месторождения. Этот минеральный ресурс может служить и как топливо, и как минеральное удобрение. Добыча его ведется в основном в Нестеровском и Полесском районах области. Иногда его теплотворная способность достигает 5000 кКал, хотя с 1982 г. использование его как топлива запрещено законом. Этот ресурс поставляется во многие страны Европы. О каком ресурсе идет речь? Какие проблемы его добычи и использования Вы знаете? ~~Смотрите на обороте~~

Задание 3. Ниже представлены шесть мировых достопримечательностей мира. Определите эти достопримечательности, внесите номер фотографии в таблицу ниже, заполните графу «Местоположение», указав страну, материк, где находится объект.

811



№ фото	Достопримечательности	Местоположение
6	Оперный театр	Страна: Греция Материк: Евразия
4	Пирамиды	Страна: Египет Материк: Африка
3	Великая стена	Страна: Китай Материк: Евразия
2	Статуя Свободы	Страна: США Материк: Северная Америка
5	Статуя Христа Искупителя	Бразилия Страна: Материк: Южная Америка
1	Эйфелева башня	Франция Страна: Материк: Евразия

Задание 4. Прочитайте фрагмент газетной статьи:

«В 2008 году начато строительство нового нефтепровода «Восточная Сибирь – Тихий океан» (ВСТО). При его строительстве будут использоваться новейшие технологии, призванные обеспечить надежность его эксплуатации в условиях низких температур и вечной мерзлоты. Против прокладки трассы нефтепровода в непосредственной близости от озера Байкал возражали ученые-экологи, которые говорили о неизбежности экологической катастрофы в случае аварии на будущем нефтепроводе. Под их влиянием было принято решение об изменении трассы трубопровода».

Какие особенности территории, по которой должен был пройти нефтепровод, заставляли ученых говорить о высокой степени вероятности аварии на нефтепроводе и неизбежности в этом случае загрязнения вод озера Байкал? Укажите две особенности.

~~Запишите:~~

0

Тест	1	2	3	4
7	6	0	9	0

22б

816

Школьный этап всероссийской олимпиады школьников по географии
2020 – 2021 учебный год
8 КЛАСС

Тестовый тур

1. Заросли сухих кустарников скрэбы – широко распространены в
А) Австралии
Б) Африке
В) Южной Америке
Г) Евразии

2. Какому азимуту соответствует направление на ВЮВ?
А) 135°
Б) 292,5°
В) 112,5°
Г) 202,5°

3. В какую геологическую эру произошли такие события как появление млекопитающих и птиц, появление первых цветковых растений, господство голосеменных растений и пресмыкающихся:
А) архейская
Б) протерозойская
В) палеозойская
Г) мезозойская

4. Бурный грязе-каменный поток, часто возникающий на окончании ледника при сильных ливнях или при интенсивном таянии снега, перемещающийся по склону и несущий с собой массу камней – это:
А) оползень
Б) наводнение
В) сель
Г) морена

5. Определите примерную высоту горы, если известно, что у ее подножия температура воздуха составила +16°С, а на ее вершине –8°С:
А) 1,3 км
Б) 4 км
В) 24 км
Г) 400 м

6. Явление, когда в каждый момент суток одинаковое время бывает лишь в точках, расположенных на одном меридиане, называется:
А) поясным временем
Б) декретным временем
В) местным временем
Г) летним временем

7.Основными полезными ископаемыми Ставропольского края являются:
А) железные руды, газ, каменный уголь
Б) строительные материалы, углеводородное сырьё, геотермальные воды
В) нефть, полиметаллические руды, медные руды
Г) урановые руды, золото, бокситы