Шелкопляев 1 7 кл. 0702

Всероссийская олимпиада школьников по географии

школьный этап

2022/ 2023 учебного года

г. Пятигорск

Задания тестового и теоретического (письменного) тура

возрастная группа (7-8 классы)

Уважаемый участник олимпиады!

Вам предстоит выполнить теоретические (письменные) и тестовые задания.

Время выполнения заданий тестовых заданий ___30__минут.

Время выполнения заданий теоретического тура ___60__минут.

Выполнение теоретических (письменных) заданий целесообразно организовать следующим образом:

- не спеша, внимательно прочитайте задание и определите, наиболее верный и полный ответ;

-отвечая на теоретические вопросы и выполняя практические задания, обдумайте и сформулируйте конкретный ответ только на поставленный вопрос;

-если Вы отвечаете на задание, связанное с заполнением таблицы или схемы, не старайтесь детализировать информацию, вписывайте только те сведения или данные, которые указаны в вопросе;

-особое внимание обратите на задания, в выполнении которых требуется выразить Ваше мнение с учетом анализа ситуации или поставленной проблемы. Внимательно и вдумчиво определите смысл вопроса и логику ответа (последовательность и точность изложения). Отвечая на вопрос, предлагайте свой вариант решения проблемы, при этом ответ должен быть кратким, но содержать необходимую информацию;

-после выполнения всех предложенных заданий еще раз удостоверьтесь в правильности выбранных Вами ответов и решений.

Выполнение тестовых заданий целесообразно организовать следующим образом:

-не спеша, внимательно прочитайте тестовое задание;

-определите, какой из предложенных вариантов ответа наиболее верный и полный;

-напишите букву, соответствующую выбранному Вами ответу;

-продолжайте, таким образом, работу до завершения выполнения тестовых заданий;

-после выполнения всех предложенных заданий еще раз удостоверьтесь в правильности ваших ответов;

-если потребуется корректировка выбранного Вами варианта ответа, то неправильный вариант ответа зачеркните крестиком, и рядом напишите новый.

Предупреждаем Вас, что:

-при оценке тестовых заданий, где необходимо определить один правильный ответ, 0– баллов выставляется за неверный ответ и в случае, если участником отмечены несколько ответов (в том числе правильный), или все ответы;

Задание теоретического тура считается выполненным, если Вы вовремя сдаете его членам жюри.

Максимальная оценка за полностью выполненную работу – 70 баллов.

Школьный этап всероссийской олимпиады школьников

2022-2023 учебного года по географии 7-8 классы

(90минут)

1.Тестовый тур (30минут)

1. Пролив, отделяющий Евразию от Африки:

А. пролив Дрейка Б. Гибралтарский пролив

В. Торресов пролив Г. Беренгов пролив

2. Каков будет обратный азимут, если прямой азимут составляет 78°?

А. 12° Б. 102° В. 258° Г. 282°.

3. Водопад Анхель находится на материке

А. Южная Америка Б. Евразия В. Африка Г. Антарктида

4. Колхидой древние греки называли:

А. Армению Б. Турцию В. Грузию Г. Кипр.

5. Командорские острова названы в честь…

А. Семена Дежнева Б. Витуса Беринга В. Виллема Баренца Г. Алексея Чирикова

6. Выберите азональные типы растительности:

А. Мангровые заросли Б. Смешанные леса В. Саванны и редколесья Г. Лесотундра

7. Какая река, водосборный бассейн которой полностью расположен в России, является самой длинной в стране?

А. Лена Б. Обь В. Енисей Г. Волга

8. В какой стране больше всего часовых поясов?

А. США Б. Франция В. Россия Г. Канада

9. В России наиболее высокую вершину из представленного списка имеют горы:

А. Хибины Б. Уральские В. Сихоте-Алинь Г. Кавказ

10. Жители, какого региона первыми встретят Новый год

А. Республика Карелия Б. Хабаровский край В. Ставропольский край

Г. Свердловская область

11. Как называется явление, при котором Земля попадает в тень, отбрасываемую Луной?

А. Лунное затмение Б. Солнечное затмение В. Парад планет Г. Солнцестояние

12. Россия по суши граничит с

А. 10 странами Б. 16 странами В. 18 странами Г. 25 странами

13. Какой из перечисленных народов, проживающих на территории России, является наиболее многочисленным?

А. коми Б. карелы В. татары Г. удмурты

14. Масштаб на карте 1: 20 000. Расстояние между двумя городами на карте - 25 см. Какое расстояние между этими городами на местности?

А. 10 км Б. 5 км В. 25 км Г. 15 км

15.Самая длинная горная система на Земле?

А. Гималаи Б. Анды В. Кавказ Г. Альпы

16. Из Средиземного моря в Красное море можно попасть через

А. Суэцкий канал Б. Гибралтарский пролив В. Панамский канал Г. Беренгов пролив

17. Назовите главный угольный бассейн России

А. Канско – Ачинский Б. Печорский В. Кузнецкий Г. Южно-Якутский

18. Морская вода в течение миллиона лет становится:

А. более пресной Б. более соленой В. остается прежней Г. становится кислой

19. В каком субъекте РФ континентальный участок государственной границы имеет наибольшую протяженность?

А. Амурская область Б. Забайкальский край В. Оренбургская область Г. Республика Карелия.

20. Распределите города Ставропольского края в порядке увеличения их численности:

А. Ставрополь Б. Пятигорск В. Кисловодск Г. Ессентуки

Теоретический (письменный) тур (60 минут)

Задание 1.

1)Определите, о каком географическом объекте идет речь, и ответьте на дополнительные вопросы:

Это крупнейший замкнутый водоем или самое большое по площади озеро планеты. Расположено оно на стыке Европы и Азии. К его берегам имеют выход несколько стран мира, в том числе и Россия. С севера в этот водоем впадает крупнейшая река европейской части нашей страны.

Какие страны кроме России имеют выход к его берегам?	Казахстан; Туркменистан; Иран; Азербайджан.
В пределах, каких субъектов России находится этот водоем?	Карелия; Дагестан.

2) «Каменный пояс России» – именно так издавна называют этот природный объект, горы которого словно опоясывают территорию нашей страны, разделяя между собой европейскую и азиатскую части. Горные хребты тянутся от побережья холодного

Карского моря вплоть до бескрайних степей Казахстана. Представляет собой уникальный природный комплекс, в состав которого входит несколько климатических зон.

О каком горном массиве идёт речь в тексте?	Уральские горы 1б
Назовите высшую точку	~~3357~~ м
Залежи каких природных ископаемых расположены на западных склонах гор?	
Ярко-зеленый минерал, в природе встречается от почти чёрного – до бело-зелёного	Изумруд
Перечислите республики, через которые проходит горный массив	
К какой группе гор по происхождению относят этот горный массив?	

Задание 2. Знаменитый мореплаватель, был жестоким и властным человеком, но при этом отважным и целеустремленным. Он возглавлял экспедицию в Индию, которая помогла наладить торговые отношения между двумя странами и открыть новые морские пути, что стало главным достижением в его жизни. 6б

Перед вами карта его путешествий, определите, о каком путешественнике идет речь, и ответьте на ряд вопросов.

1. Назовите этого путешественника Васко Да Гама 2б
2. В каком году произошла высадка путешественника в Индии? 1457
3. Сколько раз он плавал к берегам Индии? 2
4. Путешественником из какой страны был этот мореплаватель? Португалия 2

4б

Задание 3. Рассмотрите снимок, сделанный из космоса. Ответьте на вопросы.

1.Что за природное явление на нем изображено? Извержение вулкана 1б

2.Как вести себя во время этого природного явления? Полная эвакуация ближних районов. Если от эпицентра до спасения далеко. Остаться в безопасных подручных местах (подвал) 2б

3.Назовите материк, где не может быть такого природного явления, и объясните почему? Антарктида. Причина: климат об

3б

Задание 4.

4.1 Ниже представлены фотографии четырёх достопримечательностей Пятигорска. Определите эти достопримечательности, внесите номер фотографии в таблицу ниже, заполните все графы таблицы

1



2

3

4

Номер фото-графии	Название объекта	Краткое описание объекта, его особенности
1	Эолова Арфа 1	Находится около академической галереи. Построили итальянские архитекторы Братья Бернандаицы. Раньше там стояла лира, но потом заменили на современ. 1
2	Место Дуэли Лермонтава 1	Находится не далеко от поляны „песен". На этом месте произошла последняя дуэль поэта М.Ю. Лермонтава. Находится на подножье Машука 1
3	Провалъ 1	Известное место благодаря легенде гор. Рядом у входа стоят памятники из фильма „12 стульев". 1
4	Лермонтавская Галерея 1	Находится у Цветника. Раньше он был складной. И даже таким методом доезжал до Парижа 1

8б

4.2. Определите по описанию название горы

1	Останец Пятигорья, название происходит от тюркских слов. Гора имеет пять вершин. Ее и 12 окружающих ее вершин называли Лошадиными горами.	Бештау 2б
2	Вторая по высоте, после Бештау, гора-останец Пятигорья	~~Машук~~ 0б
3	Гора-останец близ города Минеральные Воды. Название, возможно, произошло из-за серии узких извилистых оврагов, прорезавших восточный склон горы,	~~Кинжал~~ Змейка 2б

	напоминавших змей.	
4	Гора магматического происхождения Пятигорья, вершина которой лишена лесной растительности.	Лермонтов 0б.
5	Гора магматического происхождения, у подножия которой расположен г. Пятигорск. Название происходит от собственного имени героя кабардинской легенды нарта, окаменевшего в виде этой горы	—

40

тест: 14б
зад.1: 6б
зад.2. 4б.
зад.3 3б.
зад 4 – 12б 4.1 – 8б
4.2 – 4б

39 б.

Тарасов В. 8 кл. 0806

Всероссийская олимпиада школьников по географии

школьный этап

2022/ 2023 учебного года

г. Пятигорск

Задания тестового и теоретического (письменного) тура

возрастная группа (7-8 классы)

Уважаемый участник олимпиады!

Вам предстоит выполнить теоретические (письменные) и тестовые задания.

Время выполнения заданий тестовых заданий ___30__минут.

Время выполнения заданий теоретического тура ___60__минут.

Выполнение теоретических (письменных) заданий целесообразно организовать следующим образом:

- не спеша, внимательно прочитайте задание и определите, наиболее верный и полный ответ;

-отвечая на теоретические вопросы и выполняя практические задания, обдумайте и сформулируйте конкретный ответ только на поставленный вопрос;

-если Вы отвечаете на задание, связанное с заполнением таблицы или схемы, не старайтесь детализировать информацию, вписывайте только те сведения или данные, которые указаны в вопросе;

-особое внимание обратите на задания, в выполнении которых требуется выразить Ваше мнение с учетом анализа ситуации или поставленной проблемы. Внимательно и вдумчиво определите смысл вопроса и логику ответа (последовательность и точность изложения). Отвечая на вопрос, предлагайте свой вариант решения проблемы, при этом ответ должен быть кратким, но содержать необходимую информацию;

-после выполнения всех предложенных заданий еще раз удостоверьтесь в правильности выбранных Вами ответов и решений.

Выполнение тестовых заданий целесообразно организовать следующим образом:

-не спеша, внимательно прочитайте тестовое задание;

-определите, какой из предложенных вариантов ответа наиболее верный и полный;

-напишите букву, соответствующую выбранному Вами ответу;

-продолжайте, таким образом, работу до завершения выполнения тестовых заданий;

-после выполнения всех предложенных заданий еще раз удостоверьтесь в правильности ваших ответов;

-если потребуется корректировка выбранного Вами варианта ответа, то неправильный вариант ответа зачеркните крестиком, и рядом напишите новый.

Предупреждаем Вас, что:

-при оценке тестовых заданий, где необходимо определить один правильный ответ, 0– баллов выставляется за неверный ответ и в случае, если участником отмечены несколько ответов (в том числе правильный), или все ответы;

Задание теоретического тура считается выполненным, если Вы вовремя сдаете его членам жюри.

Максимальная оценка за полностью выполненную работу – 70 баллов.

Школьный этап всероссийской олимпиады школьников

2022-2023 учебного года по географии 7-8 классы

(90минут)

1.Тестовый тур (30минут)

1. Пролив, отделяющий Евразию от Африки:

А. пролив Дрейка Б. Гибралтарский пролив

В. Торресов пролив Г. Беренгов пролив

2. Каков будет обратный азимут, если прямой азимут составляет 78°?

А. 12° Б. 102° В. 258° Г. 282°.

3. Водопад Анхель находится на материке

А. Южная Америка Б. Евразия В. Африка Г. Антарктида

4. Колхидой древние греки называли:

А. Армению Б. Турцию В. Грузию Г. Кипр.

5. Командорские острова названы в честь…

А. Семена Дежнева Б. Витуса Беринга В. Виллема Баренца Г. Алексея Чирикова

6. Выберите азональные типы растительности:

А. Мангровые заросли Б. Смешанные леса В. Саванны и редколесья Г. Лесотундра

7. Какая река, водосборный бассейн которой полностью расположен в России, является самой длинной в стране?

А. Лена Б. Обь В. Енисей Г. Волга

8. В какой стране больше всего часовых поясов?

А. США Б. Франция В. Россия Г. Канада

9. В России наиболее высокую вершину из представленного списка имеют горы:

А. Хибины Б. Уральские В. Сихоте-Алинь Г. Кавказ

10. Жители, какого региона первыми встретят Новый год

А. Республика Карелия Б. Хабаровский край В. Ставропольский край

Г. Свердловская область

11. Как называется явление, при котором Земля попадает в тень, отбрасываемую Луной?

А. Лунное затмение Б. Солнечное затмение В. Парад планет Г. Солнцестояние

12. Россия по суши граничит с

А. 10 странами Б. 16 странами В. 18 странами Г. 25 странами

13. Какой из перечисленных народов, проживающих на территории России, является наиболее многочисленным?

А. коми Б. карелы В. татары Г. удмурты

14. Масштаб на карте 1: 20 000. Расстояние между двумя городами на карте - 25 см. Какое расстояние между этими городами на местности?

А. 10 км Б. 5 км В. 25 км Г. 15 км

15.Самая длинная горная система на Земле?

А. Гималаи Б. Анды В. Кавказ Г. Альпы

16. Из Средиземного моря в Красное море можно попасть через

А. Суэцкий канал Б. Гибралтарский пролив В. Панамский канал Г. Берингов пролив

17. Назовите главный угольный бассейн России

А. Канско – Ачинский Б. Печорский В. Кузнецкий Г. Южно-Якутский

18. Морская вода в течение миллиона лет становится:

А. более пресной Б. более соленой В. остается прежней Г. становится кислой

19. В каком субъекте РФ континентальный участок государственной границы имеет наибольшую протяженность?

А. Амурская область Б. Забайкальский край В. Оренбургская область Г. Республика Карелия.

20. Распределите города Ставропольского края в порядке увеличения их численности:

А. Ставрополь Б. Пятигорск В. Кисловодск Г. Ессентуки

Теоретический (письменный) тур (60 минут)

Задание 1.

1)Определите, о каком географическом объекте идет речь, и ответьте на дополнительные вопросы:

Это крупнейший замкнутый водоем или самое большое по площади озеро планеты. Расположено оно на стыке Европы и Азии. К его берегам имеют выход несколько стран мира, в том числе и Россия. С севера в этот водоем впадает крупнейшая река европейской части нашей страны.

Какие страны кроме России имеют выход к его берегам?	Казахстан; Иран; Туркмения; Азербайджан
В пределах, каких субъектов России находится этот водоем?	Республика Калмыкия; Дагестан; Астраханская область

2) «Каменный пояс России» – именно так издавна называют этот природный объект, горы которого словно опоясывают территорию нашей страны, разделяя между собой европейскую и азиатскую части. Горные хребты тянутся от побережья холодного

Карского моря вплоть до бескрайних степей Казахстана. Представляет собой уникальный природный комплекс, в состав которого входит несколько климатических зон.

О каком горном массиве идёт речь в тексте?	Уральские горы 1
Назовите высшую точку	г. Народная 1
Залежи каких природных ископаемых расположены на западных склонах гор?	Каменный уголь, Нефть, Поваренная соль, Калийная соль, Хромовые руды, Железные руды 1
Ярко-зеленый минерал. в природе встречается от почти чёрного – до бело-зелёного	Изумруд
Перечислите республики, через которые проходит горный массив	Республика Коми; Башкортостан; Ханты-Мансийский авт. округ; Пермский край; Свердловская обл.; Оренбургская область 2
К какой группе гор по происхождению относят этот горный массив?	Герцинской складчатости 0

Задание 2. Знаменитый мореплаватель, был жестоким и властным человеком, но при этом отважным и целеустремленным. Он возглавлял экспедицию в Индию, которая помогла наладить торговые отношения между двумя странами и открыть новые морские пути, что стало главным достижением в его жизни.

Перед вами карта его путешествий, определите, о каком путешественнике идет речь, и ответьте на ряд вопросов.

1. Назовите этого путешественника Васко да Гама 2 б.
2. В каком году произошла высадка путешественника в Индии? 1497-1499 2 б.
3. Сколько раз он плавал к берегам Индии? 3 2 б.
4. Путешественником из какой страны был этот мореплаватель? Испания 0

Задание 3. Рассмотрите снимок, сделанный из космоса. Ответьте на вопросы.

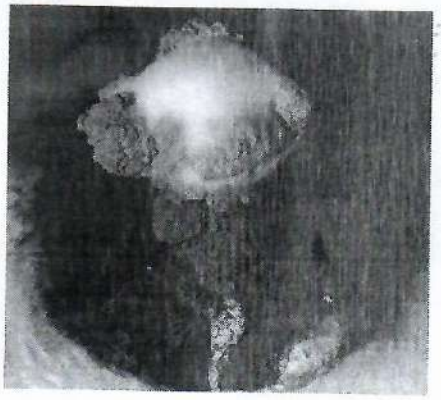

1.Что за природное явление на нем изображено? Извержение вулкана !

2.Как вести себя во время этого природного явления? собрать все необходимые вещи, запас продуктов и питья, эвакуироваться в спасателя и выполнять их указания

3.Назовите материк, где не может быть такого природного явления, и объясните почему? Антарктида - вулканы, горы, территории покрыты огромными слоем льда и снега

0

Задание 4.

4.1 Ниже представлены фотографии четырёх достопримечательностей Пятигорска. Определите эти достопримечательности, внесите номер фотографии в таблицу ниже, заполните все графы таблицы

1



2



3

4

Номер фото-графии	Название объекта	Краткое описание объекта, его особенности
1	Эолова арфа	„Эол"- ветер, ~~раньше~~ при постройке этого творения, был установлен механизм, и когда дул ветер он работал, вращался и проигрывалась музыка. Беседка близь Елизаветинской галлереи. 1
2	Памятник дуэли Лермонтова	Приблизительно в той области города произошла дуэль Лермонтова и Мартынова. Красивый, величественный памятник, украшенный по краям каменными грифонами. 1
3	Озеро Провал	Почвы провалились и людям открылась красота озера Провала. Потом бробурили проход к нему сквозь скалы. Раньше туда спускали людей в лодках и они там плавали (на лод). Сейчас это красивое живописное место. (г. Машук) 0
4	~~Елизаветинская галлерея~~ Питьевая галлерея	Вся наружная часть сделана из стекла. Сейчас там проходят ярмарки и выступления. Находится около театра. 0

4.2. Определите по описанию название горы

1	Останец Пятигорья, название происходит от тюркских слов. Гора имеет пять вершин. Ее и 12 окружающих ее вершин называли Лошадиными горами.	Бештау 2
2	Вторая по высоте, после Бештау, гора-останец Пятигорья	Эол Курган ~~Лысогорка~~
3	Гора-останец близ города Минеральные Воды. Название, возможно, произошло из-за серии узких извилистых оврагов, прорезавших восточный склон горы,	Змейка 2

	напоминавших змей.	
4	Гора магматического происхождения Пятигорья, вершина которой лишена лесной растительности.	Лысогорка 2
5	Гора магматического происхождения, у подножия которой расположен г. Пятигорск. Название происходит от собственного имени героя кабардинской легенды нарта, окаменевшего в виде этой горы	Машук 2

4 ~~6~~ б

Тест 16

Зад. 1 ~~4~~ 6

Зад. 2 10

Зад 3 4

Зад 4 10

Якубова Я. 8 кл. 0804

Всероссийская олимпиада школьников по географии

школьный этап

2022/ 2023 учебного года

г. Пятигорск

Задания тестового и теоретического (письменного) тура

возрастная группа (7-8 классы)

Уважаемый участник олимпиады!

Вам предстоит выполнить теоретические (письменные) и тестовые задания.

Время выполнения заданий тестовых заданий ___30__минут.

Время выполнения заданий теоретического тура ___60__минут.

Выполнение теоретических (письменных) заданий целесообразно организовать следующим образом:

- не спеша, внимательно прочитайте задание и определите, наиболее верный и полный ответ;

-отвечая на теоретические вопросы и выполняя практические задания, обдумайте и сформулируйте конкретный ответ только на поставленный вопрос;

-если Вы отвечаете на задание, связанное с заполнением таблицы или схемы, не старайтесь детализировать информацию, вписывайте только те сведения или данные, которые указаны в вопросе;

-особое внимание обратите на задания, в выполнении которых требуется выразить Ваше мнение с учетом анализа ситуации или поставленной проблемы. Внимательно и вдумчиво определите смысл вопроса и логику ответа (последовательность и точность изложения). Отвечая на вопрос, предлагайте свой вариант решения проблемы, при этом ответ должен быть кратким, но содержать необходимую информацию;

-после выполнения всех предложенных заданий еще раз удостоверьтесь в правильности выбранных Вами ответов и решений.

Выполнение тестовых заданий целесообразно организовать следующим образом:

-не спеша, внимательно прочитайте тестовое задание;

-определите, какой из предложенных вариантов ответа наиболее верный и полный;

-напишите букву, соответствующую выбранному Вами ответу;

-продолжайте, таким образом, работу до завершения выполнения тестовых заданий;

-после выполнения всех предложенных заданий еще раз удостоверьтесь в правильности ваших ответов;

-если потребуется корректировка выбранного Вами варианта ответа, то неправильный вариант ответа зачеркните крестиком, и рядом напишите новый.

Предупреждаем Вас, что:

-при оценке тестовых заданий, где необходимо определить один правильный ответ, 0– баллов выставляется за неверный ответ и в случае, если участником отмечены несколько ответов (в том числе правильный), или все ответы;

Задание теоретического тура считается выполненным, если Вы вовремя сдаете его членам жюри.

Максимальная оценка за полностью выполненную работу – 70 баллов.

Школьный этап всероссийской олимпиады школьников

2022-2023 учебного года по географии 7-8 классы

(90минут)

1.Тестовый тур (30минут)

1. Пролив, отделяющий Евразию от Африки:

А. пролив Дрейка Б. Гибралтарский пролив

В. Торресов пролив Г. Беренгов пролив

2. Каков будет обратный азимут, если прямой азимут составляет 78°?

А. 12° Б. 102° В. 258° Г. 282°.

3. Водопад Анхель находится на материке

А. Южная Америка Б. Евразия В. Африка Г. Антарктида

4. Колхидой древние греки называли:

А. Армению Б. Турцию В. Грузию Г. Кипр.

5. Командорские острова названы в честь…

А. Семена Дежнева Б. Витуса Беринга В. Виллема Баренца Г. Алексея Чирикова

6. Выберите азональные типы растительности:

А. Мангровые заросли Б. Смешанные леса В. Саванны и редколесья Г. Лесотундра

7. Какая река, водосборный бассейн которой полностью расположен в России, является самой длинной в стране?

А. Лена Б. Обь В. Енисей Г. Волга

8. В какой стране больше всего часовых поясов?

А. США Б. Франция В. Россия Г. Канада

9. В России наиболее высокую вершину из представленного списка имеют горы:

А. Хибины Б. Уральские В. Сихоте-Алинь Г. Кавказ

10. Жители, какого региона первыми встретят Новый год

А. Республика Карелия Б. Хабаровский край В. Ставропольский край

Г. Свердловская область

11. Как называется явление, при котором Земля попадает в тень, отбрасываемую Луной?

А. Лунное затмение Б. Солнечное затмение В. Парад планет Г. Солнцестояние

12. Россия по суши граничит с

А. 10 странами Б. 16 странами В. 18 странами Г. 25 странами

13. Какой из перечисленных народов, проживающих на территории России, является наиболее многочисленным?

А. коми Б. карелы В. татары Г. удмурты

14. Масштаб на карте 1: 20 000. Расстояние между двумя городами на карте - 25 см. Какое расстояние между этими городами на местности?

А. 10 км Б. 5 км В. 25 км Г. 15 км

15.Самая длинная горная система на Земле?

А. Гималаи Б. Анды В. Кавказ Г. Альпы

16. Из Средиземного моря в Красное море можно попасть через

А. Суэцкий канал Б. Гибралтарский пролив В. Панамский канал Г. Беренгов пролив

17. Назовите главный угольный бассейн России

А. Канско – Ачинский Б. Печорский В. Кузнецкий Г. Южно-Якутский

18. Морская вода в течение миллиона лет становится:

А. более пресной Б. более соленой В. остается прежней Г. становится кислой

19. В каком субъекте РФ континентальный участок государственной границы имеет наибольшую протяженность?

А. Амурская область Б. Забайкальский край В. Оренбургская область Г. Республика Карелия.

20. Распределите города Ставропольского края в порядке увеличения их численности:

А. Ставрополь Б. Пятигорск В. Кисловодск Г. Ессентуки А. Г. В. Б.

Теоретический (письменный) тур (60 минут)

Задание 1.

1)Определите, о каком географическом объекте идет речь, и ответьте на дополнительные вопросы:

Это крупнейший замкнутый водоем или самое большое по площади озеро планеты. Расположено оно на стыке Европы и Азии. К его берегам имеют выход несколько стран мира, в том числе и Россия. С севера в этот водоем впадает крупнейшая река европейской части нашей страны.

Какие страны кроме России имеют выход к его берегам?	Казахстан, Туркменистан, Иран, Азербайджан
В пределах, каких субъектов России находится этот водоем?	Республика Дагестан, республика Калмыкия, Астраханская область

2) «Каменный пояс России» – именно так издавна называют этот природный объект, горы которого словно опоясывают территорию нашей страны, разделяя между собой европейскую и азиатскую части. Горные хребты тянутся от побережья холодного

Карского моря вплоть до бескрайних степей Казахстана. Представляет собой уникальный природный комплекс, в состав которого входит несколько климатических зон.

О каком горном массиве идёт речь в тексте?	Уральские горы.
Назовите высшую точку	г. Народная.
Залежи каких природных ископаемых расположены на западных склонах гор?	Нефть, природный газ, поваренная соль, калийные соли, каменный уголь
Ярко-зеленый минерал, в природе встречается от почти чёрного – до бело-зелёного	3б
Перечислите республики, через которые проходит горный массив	респ. Башкортостан ~~Курская область~~, респ. Коми, ~~Новая~~
К какой группе гор по происхождению относят этот горный массив?	Складчатые

Задание 2. Знаменитый мореплаватель, был жестоким и властным человеком, но при этом отважным и целеустремленным. Он возглавлял экспедицию в Индию, которая помогла наладить торговые отношения между двумя странами и открыть новые морские пути, что стало главным достижением в его жизни.

Перед вами карта его путешествий, определите, о каком путешественнике идет речь, и ответьте на ряд вопросов.

1. Назовите этого путешественника ~~Васко да Гама~~ 2б
2. В каком году произошла высадка путешественника в Индии? _____
3. Сколько раз он плавал к берегам Индии? _____
4. Путешественником из какой страны был этот мореплаватель? _____

Задание 3. Рассмотрите снимок, сделанный из космоса. Ответьте на вопросы.

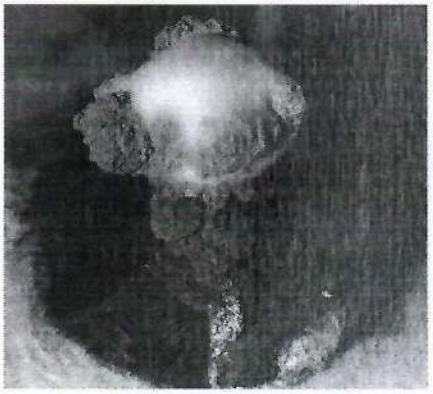

1.Что за природное явление на нем изображено? _____

2.Как вести себя во время этого природного явления? _____

_____

_____

_____

_____

3.Назовите материк, где не может быть такого природного явления, и объясните почему?_____

_____

_____

Задание 4.

4.1 Ниже представлены фотографии четырёх достопримечательностей Пятигорска. Определите эти достопримечательности, внесите номер фотографии в таблицу ниже, заполните все графы таблицы

1



2

3



4

Номер фото-графии	Название объекта	Краткое описание объекта, его особенности
1	Золова Арфа	Беседка, построенная в 1830-х гг. по проекту братьев Бернардацци. Изначально там была установлена арфа, струны кот-ой играли от ветра. 1б
2	Место дуэли М.Ю. Лермонтова	Расположено на подножии г. Машук. Является местом сражения и гибели М.Ю. Лермонтова 1б
3	Озеро Провал	Озеро расположено в пещере на подножии горы Машук. Имеет характерный запах, т.к. содержит сероводород. 1б
4	Лермонтовская галерея	Расположена в парке Цветник, является местом проведения спектаклей. Интересно что окна выполнены из цветных стекол. 1

4б.

4.2. Определите по описанию название горы

1	Останец Пятигорья, название происходит от тюркских слов. Гора имеет пять вершин. Ее и 12 окружающих ее вершин называли Лошадиными горами.	г. Бештау 2б.
2	Вторая по высоте, после Бештау, гора-останец Пятигорья	
3	Гора-останец близ города Минеральные Воды. Название, возможно, произошло из-за серии узких извилистых оврагов, прорезавших восточный склон горы,	г. Змейка 2б.

	напоминавших змей.	
4	Гора магматического происхождения Пятигорья, вершина которой лишена лесной растительности.	
5	Гора магматического происхождения, у подножия которой расположен г. Пятигорск. Название происходит от собственного имени героя кабардинской легенды нарта, окаменевшего в виде этой горы	г. Машук 20.

/6

35 б.

тесб

тест – 13 б.
зад. 1 – 10 б.
зад. 2 – 2 б
зад. 3 – 0 б.
зад. 4 – 10

35 б

35

9903 Сафарова Н. 9кл. 9кл (6)

Всероссийская олимпиада школьников по географии

школьный этап

2022/ 2023 учебного года

г. Пятигорск

Задания тестового и теоретического (письменного) тура

возрастная группа (9-11классы)

Уважаемый участник олимпиады!

Вам предстоит выполнить теоретические (письменные) и тестовые задания.

Время выполнения заданий тестовых заданий ___45__минут.

Время выполнения заданий теоретического тура ___90__минут.

Выполнение теоретических (письменных) заданий целесообразно организовать следующим образом:

- не спеша, внимательно прочитайте задание и определите, наиболее верный и полный ответ;

-отвечая на теоретические вопросы и выполняя практические задания, обдумайте и сформулируйте конкретный ответ только на поставленный вопрос;

-если Вы отвечаете на задание, связанное с заполнением таблицы или схемы, не старайтесь детализировать информацию, вписывайте только те сведения или данные, которые указаны в вопросе;

-особое внимание обратите на задания, в выполнении которых требуется выразить Ваше мнение с учетом анализа ситуации или поставленной проблемы. Внимательно и вдумчиво определите смысл вопроса и логику ответа (последовательность и точность изложения). Отвечая на вопрос, предлагайте свой вариант решения проблемы, при этом ответ должен быть кратким, но содержать необходимую информацию;

-после выполнения всех предложенных заданий еще раз удостоверьтесь в правильности избранных Вами ответов и решений.

Выполнение тестовых заданий целесообразно организовать следующим образом:

-не спеша, внимательно прочитайте тестовое задание;

-определите, какой из предложенных вариантов ответа наиболее верный и полный;

-напишите букву, соответствующую выбранному Вами ответу;

-продолжайте, таким образом, работу до завершения выполнения тестовых заданий;

-после выполнения всех предложенных заданий еще раз удостоверьтесь в правильности ваших ответов;

-если потребуется корректировка выбранного Вами варианта ответа, то неправильный вариант ответа зачеркните крестиком, и рядом напишите новый.

Предупреждаем Вас, что:

-при оценке тестовых заданий, где необходимо определить один правильный ответ, 0–баллов выставляется за неверный ответ и в случае, если участником отмечены несколько ответов (в том числе правильный), или все ответы;

Задание теоретического тура считается выполненным, если Вы вовремя сдаете его членам жюри.

Максимальная оценка за полностью выполненную работу – **80 баллов.**

Школьный этап всероссийской олимпиады школьников

2022-2023 учебного года по географии 9-11 классы

(135минут)

Тестовый тур(45минут)

1. Какой субъект исчез с карты Российской Федерации после 2008 года:

1) Тюменская область 2) Свердловская область

3) Читинская область 4) Иркутская область. 1б

2. Какое из перечисленных государств по форме правления является монархией?

1) Испания 2) Португалия 3) Франция 4) Финляндия 1б

3.Установите соответствие « порт – море»: 3А, 2Б, 4Г, 1В. 1б

1- Находка	2- Мурманск	3- Калининград	4- Тикси
А- Балтийское	Б-Японское	В- Баренцево	Г-Лаптевых.

4.В каком из высказываний содержится информация о процессе урбанизации?

1) Численность и плотность населения увеличиваются в тех странах и регионах, где наиболее высок естественный прирост населения;

2) Половина населения мира живет в сельской местности, а общее количество сельских населенных пунктов составляет 15-20 млн;

3) В начале XX в. в мире насчитывалось 360 больших городов, к началу XXI в. число больших городов достигло 4 тыс; 1б

4) В наименее развитых странах проживает более 600 млн. человек со среднедушевым ВВП 100 - 300 долл. в год.

5. Какая из перечисленных стран находится в Азии?

1) Нигерия 2) Пакистан 3) Боливия 4) Судан 1б

6. Установите соответствие между страной и ее столицей.

1) Вьетнам	а) Стокгольм
2) Швеция	б) Коломбо
3) ЮАР	в) Ханой
	г) Претория

1б

7. Установите соответствие « отрасль географии» - объект изучения:

1-гляциология	2- литология	3- спелеология	4- геоморфология
4А – горные породы	3Б- пещеры	1В –ледники	2Г-рельеф

05

8. Какой ученый считается «отцом» теории дрейфа континентов:

1) Ньютон; 2) Вегенер; 3) Эйнштейн; 4) Агассиз 1б

9. Население, какой из перечисленных стран меньше 100 млн. человек:

1) Пакистан; 2) Германия; 3) Япония; 4) Нигерия. 0б

10. Легкая пористая горная порода, известковый туф?

1) травертин 2) блавертин 3) карст 4) уголь

11. Выберете пару стран, относящихся к наиболее отсталым в мире:

1) Бангладеш и Афганистан; 2) Египет и Марокко;

3) Перу и Чили; 4) Исландия и Греция.

12. Определите последовательность технологических процессов, осуществляемых на машиностроительном предприятии:

2 1) Обработка металлов резаньем 4 2) Кузнечно-штамповочное производство

3 3) Сборка деталей 1 4) Литейное производство

13. Исключите город не находящийся на Волго-Балтийском водном пути:

1) Самара; 2) Ярославль; 3) Тверь; 4) Санкт-Петербург.

14. Центр медно - никелевой промышленности России - это:

1) Волхов 2) Кандалакша 3) Волгоград 4) Норильск

15. Не является городом – миллионером России:

1) Новосибирск 2) Омск 3) Новгород 4) Нижний Новгород

16. Распределите горы по мере увеличения их высоты:

2 3 4 3 1

1) Бештау 2) Эльбрус 3) Белуха 4) Народная

17. Если считать высоту горы не от уровня моря, а от подножия, то самой высокой горой на Земле является:

1) Эверест 2) Чогори 3) Мауна-Кеа 4) Мауна-Лоа

18. В какой стране больше всего часовых поясов?

1) США 2) Франция 3) Россия 4) Канада

19. Какой из представленных масштабов самый крупный:

1) 1:25000
2) 1:50000
3) 1:100000
4) 1:1000000

20. Какой вклад в исследование территории России внес Г.И. Шелихов?

1) исследовал северные острова Тихого океана;
2) исследовал районы Центральной Азии;
3) доказал существование пролива между Евразией и Америкой;
4) исследовал районы Полярного Урала.

Теоретический тур (90 минут)

Задание 1.

1.1.Определите, о каком географическом объекте идет речь, и ответьте на дополнительные вопросы:

Это крупнейший замкнутый водоем или самое большое по площади озеро планеты. Расположено оно на стыке Европы и Азии. К его берегам имеют выход несколько стран мира, в том числе и Россия. С севера в этот водоем впадает крупнейшая река европейской части нашей страны.

Какие страны кроме России имеют выход к его берегам?	Казахстан, Туркмения, Иран, Азербайджан.
В пределах, каких субъектов России находится этот водоем?	р. Дагестан, Калмыкия, Астраханский край область 3б

1.2. Горная «страна», образованная системой хребтов, массивов, плоскогорий и межгорных впадин, – протянулось от верхнего течения Колымы на северо-запад к низовьям Яны почти на 1500 км. В этой стране находятся хребет Улахан - Чистай с высокогорным массивом Буордах, высочайшая вершина северо-востока России – гора Победа.

О каком горном массиве идёт речь в тексте?	хр. Черского 1б.
В каком субъекте РФ расположен горный массив?	Якутия (р. Саха) 1д
Область складчатости	скалистая
Основное занятие населения	добыча природных ресурсов

1.3.Прочитайте текст.

Зимний шторм, оставивший в Центральной России солидную сумму осадков, продолжает свой путь на восток. В этой части Русской равнины со снежным покровом негусто, а сильный снег с метелями – не повод для грусти. В настоящее время практически вся территория охвачена «нужными» снегопадами. За минувшую ночь в Нижегородской области уже выпало до 12 мм осадков, в Пензенской и Саратовской областях – до 15 мм, в Ульяновской области – до 17 мм. Синоптики говорят, что интенсивные снегопады продолжатся. За это время в регионе может выпасть до

полумесячной нормы осадков, а высота снежного покрова может утроиться. Как называется географический район России, о котором идет речь в тексте? Если ли в этом географическом районе города миллионеры, назовите их? Почему снегопады так нужны в этом регионе? Назовите не менее двух причин.

А) Географический район	~~Центральная Россия~~ Урал
Б) Города-миллионеры	Нижний Новгород Казань, Самара, Пермь
В) Причины необходимости снегопадов:	для питания рек

Задание 2.

Этот ученый прожил очень короткую, полную лишений и опасностей жизнь. Он настолько опередил свое время в методах научных исследований, в осмыслении путей развития человеческой цивилизации, что многие современники не воспринимали его всерьез. И хотя оставленное им колоссальное научное наследие было введено в оборот с огромным опозданием, спустя десятилетия после его ухода из жизни, большинство работ ученого не потеряло актуальности и до сих пор. А многие его мысли о единстве человечества и сейчас кажутся делом отдаленного будущего.

Перед вами карта его путешествий, определите, о каком путешественнике идет речь, и ответьте на ряд *вопросов (максимальное количество баллов за задание - 20).*

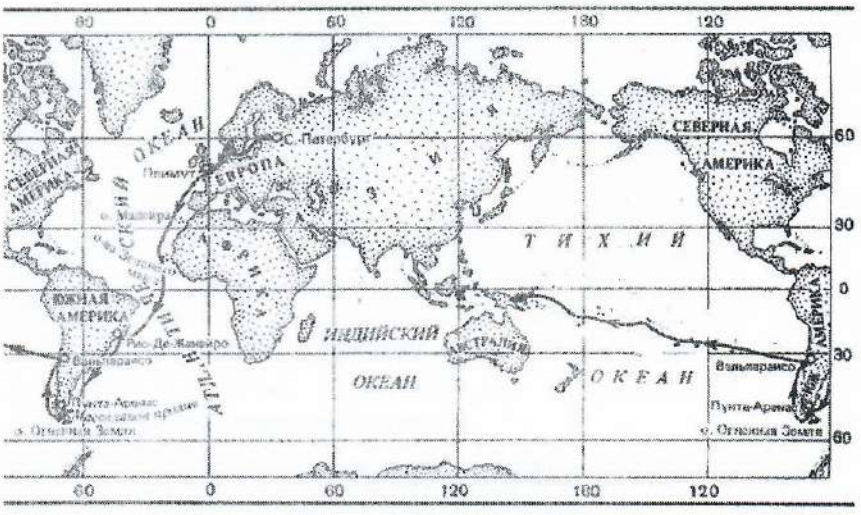

1. Назовите этого путешественника

_____ ~~о. Ява~~

2. Какой остров стал объектом его исследования? Мадагаскар

3. Какой народ активно изучал путешественник? Чукчи

4. Родился путешественник недалеко от города - районного центра, сейчас известного производством огнеупорных материалов из своих ресурсов. О каком городе идет речь? Норильск

5. Согласно семейному преданию, приставка к фамилии появилась благодаря одному воинственному предку путешественника. Из какой страны происходил этот предок?

Польша

6. Когда отмечалось 150-летие со дня рождения путешественника, ЮНЕСКО назвало его Гражданином мира. В этом же году на территории Университета одного иностранного города был установлен бюст ученого. На территории какого города находится этот памятник? Сидней

7. В каком году произошла высадка путешественника в заливе исследуемого острова? 1788 г.

8. Как называли путешественника островитяне, предполагая его мистическое, "внеземное" происхождение? _____

9. Именем ученого названа одна из почетнейших наград этого общества. О каком обществе идет речь? _____

10. День рождения этого ученого стало в России днем целой профессии. О какой профессии идет речь? _____

Задание 3.

На снимках представлены планировочные структуры городов России. Изучив их, назовите не менее 3 географических факторов, определивших особенности планировочной структуры каждого из них.

Волгоград

т.к. находится около реки, город разделяется на 3 части

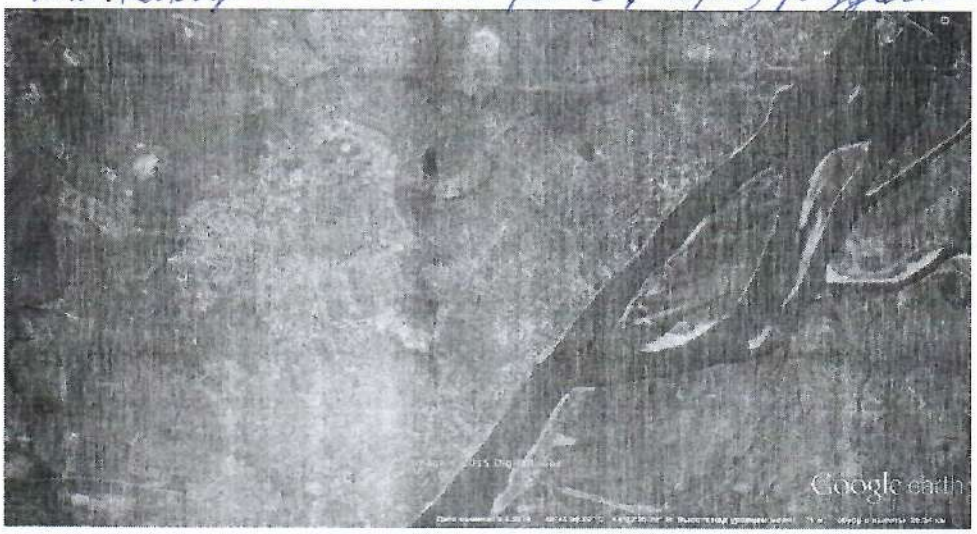

1б.

Москва

расположена кольцами, из-за р. Москвы



1б.

Новороссийск



Задание 4. Определите по описанию название горы

1	Останец Пятигорья, название происходит от тюркских слов. Гора имеет пять вершин. Ее и 12 окружающих ее вершин называли Лошадиными горами.	Бештау 2
2	Вторая по высоте, после Бештау, гора-останец Пятигорья	Машук 2
3	Гора-останец близ города Минеральные Воды. Название, возможно, произошло из-за серии узких извилистых оврагов, прорезавших восточный склон горы, напоминавших змей.	Змейка 2
4	Останцовая магматическая гора в Пятигорье, на Кавказских Минеральных Водах. Высота 884,7 м. Памятник природы	Горячая
5	Наибольшая, в пределах Ставропольского края, вершина Скалистого хребта. Наименование происходит от тюркских слов: «бурма»-нога и «быт»- мыт	Бурмамыт 2

тест 17б.
Зн. 1 14б.
Зн. 2
Зн 3 2б.
За 4 8б.

49б.

Соболева С. 9 кл. 090в

Всероссийская олимпиада школьников по географии

школьный этап

2022/ 2023 учебного года

г. Пятигорск

Задания тестового и теоретического (письменного) тура

возрастная группа (9-11классы)

Уважаемый участник олимпиады!

Вам предстоит выполнить теоретические (письменные) и тестовые задания.

Время выполнения заданий тестовых заданий ___45__минут.

Время выполнения заданий теоретического тура ___90__минут.

Выполнение теоретических (письменных) заданий целесообразно организовать следующим образом:

- не спеша, внимательно прочитайте задание и определите, наиболее верный и полный ответ;

-отвечая на теоретические вопросы и выполняя практические задания, обдумайте и сформулируйте конкретный ответ только на поставленный вопрос;

-если Вы отвечаете на задание, связанное с заполнением таблицы или схемы, не старайтесь детализировать информацию, вписывайте только те сведения или данные, которые указаны в вопросе;

-особое внимание обратите на задания, в выполнении которых требуется выразить Ваше мнение с учетом анализа ситуации или поставленной проблемы. Внимательно и вдумчиво определите смысл вопроса и логику ответа (последовательность и точность изложения). Отвечая на вопрос, предлагайте свой вариант решения проблемы, при этом ответ должен быть кратким, но содержать необходимую информацию;

-после выполнения всех предложенных заданий еще раз удостоверьтесь в правильности выбранных Вами ответов и решений.

Выполнение тестовых заданий целесообразно организовать следующим образом:

-не спеша, внимательно прочитайте тестовое задание;

-определите, какой из предложенных вариантов ответа наиболее верный и полный;

-напишите букву, соответствующую выбранному Вами ответу;

-продолжайте, таким образом, работу до завершения выполнения тестовых заданий;

-после выполнения всех предложенных заданий еще раз удостоверьтесь в правильности ваших ответов;

-если потребуется корректировка выбранного Вами варианта ответа, то неправильный вариант ответа зачеркните крестиком и рядом напишите новый.

Предупреждаем Вас, что:

-при оценке тестовых заданий, где необходимо определить один правильный ответ, 0– баллов выставляется за неверный ответ и в случае, если участником отмечены несколько ответов (в том числе правильный), или все ответы;

Задание теоретического тура считается выполненным, если Вы вовремя сдаете его членам жюри.

Максимальная оценка за полностью выполненную работу – 80 баллов.

Школьный этап всероссийской олимпиады школьников

2022-2023 учебного года по географии 9-11 классы

(135минут)

Тестовый тур(45минут)

1. Какой субъект исчез с карты Российской Федерации после 2008 года:

1) Тюменская область 2) Свердловская область

3) Читинская область 4) Иркутская область.

2. Какое из перечисленных государств по форме правления является монархией?

1) Испания 2) Португалия 3) Франция 4) Финляндия

3.Установите соответствие « порт – море»:

1- Находка 2- Мурманск 3- Калининград 4- Тикси

А- Балтийское Б-Японское В- Баренцево Г-Лаптевых.

4.В каком из высказываний содержится информация о процессе урбанизации?

1) Численность и плотность населения увеличиваются в тех странах и регионах, где наиболее высок естественный прирост населения;

2) Половина населения мира живет в сельской местности, а общее количество сельских населенных пунктов составляет 15-20 млн;

3) В начале XX в. в мире насчитывалось 360 больших городов, к началу XXI в. число больших городов достигло 4 тыс;

4) В наименее развитых странах проживает более 600 млн. человек со среднедушевым ВВП 100 - 300 долл. в год.

5. Какая из перечисленных стран находится в Азии?

1) Нигерия 2) Пакистан 3) Боливия 4) Судан

6. Установите соответствие между страной и ее столицей.

1) Вьетнам	а) Стокгольм
2) Швеция	б) Коломбо
3) ЮАР	в) Ханой
	г) Претория

7. Установите соответствие « отрасль географии» - объект изучения:

1-гляциология 2- литология 3- спелеология 4- геоморфология

А – горные породы Б- пещеры В –ледники Г-рельеф

8. Какой ученый считается «отцом» теории дрейфа континентов:

1) Ньютон; 2) Вегенер; 3) Эйнштейн; 4) Агассиз

9. Население, какой из перечисленных стран меньше 100 млн. человек:

1) Пакистан; 2) Германия; 3) Япония; 4) Нигерия.

10. Легкая пористая горная порода, известковый туф?

1) травертин 2) блавертин 3) карстовый уголь

11. Выберете пару стран, относящихся к наиболее отсталым в мире:

1) Бангладеш и Афганистан; 2) Египет и Марокко;

3) Перу и Чили; 4) Исландия и Греция.

12. Определите последовательность технологических процессов, осуществляемых на машиностроительном предприятии:

1) Обработка металлов резанием 2) Кузнечно-штамповочное производство

3) Сборка деталей 4) Литейное производство

13. Исключите город не находящийся на Волго-Балтийском водном пути:

1) Самара; 2) Ярославль; 3) Тверь; 4) Санкт-Петербург.

14. Центр медно - никелевой промышленности России - это:

1) Волхов 2) Кандалакша 3) Волгоград 4) Норильск

15. Не является городом – миллионером России:

1) Новосибирск 2) Омск 3) Новгород 4) Нижний Новгород

16. Распределите горы по мере увеличения их высоты:

1) Бештау 2) Эльбрус 3) Белуха 4) Народная

17. Если считать высоту горы не от уровня моря, а от подножия, то самой высокой горой на Земле является:

1) Эверест 2) Чогори 3) Мауна-Кеа 4) Мауна-Лоа

18. В какой стране больше всего часовых поясов?

1) США 2) Франция 3) Россия 4) Канада

19. Какой из представленных масштабов самый крупный:

1) 1:25000

2) 1:50000

3) 1:100000

4) 1:1000000

20. Какой вклад в исследование территории России внес Г.И. Шелихов?

1) исследовал северные острова Тихого океана;

2) исследовал районы Центральной Азии;

3) доказал существование пролива между Евразией и Америкой;

4) исследовал районы Полярного Урала.

Теоретический тур (90 минут)

Задание 1.

1.1.Определите, о каком географическом объекте идет речь, и ответьте на дополнительные вопросы:

Это крупнейший замкнутый водоем или самое большое по площади озеро планеты. Расположено оно на стыке Европы и Азии. К его берегам имеют выход несколько стран мира, в том числе и Россия. С севера в этот водоем впадает крупнейшая река европейской части нашей страны. Каспийское море

Какие страны кроме России имеют выход к его берегам?	Казахстан, Туркменистан, Азербайджан 4б.
В пределах, каких субъектов России находится этот водоем?	Республика Дагестан, Астрахань 3б

1.2. Горная «страна», образованная системой хребтов, массивов, плоскогорий и межгорных впадин, – протянулось от верхнего течения Колымы на северо-запад к низовьям Яны почти на 1500 км. В этой стране находятся хребет Улахан - Чистай с высокогорным массивом Буордах, высочайшая вершина северо-востока России – гора Победа.

О каком горном массиве идёт речь в тексте?	хр. Черского 1б
В каком субъекте РФ расположен горный массив?	Колымский
Область складчатости	скалистые 1б.
Основной занятие населения	сбор трав

1.3.Прочитайте текст.

Зимний шторм, оставивший в Центральной России солидную сумму осадков, продолжает свой путь на восток. В этой части Русской равнины со снежным покровом негусто, а сильный снег с метелями – не повод для грусти. В настоящее время практически вся территория охвачена «нужными» снегопадами. За минувшую ночь в Нижегородской области уже выпало до 12 мм осадков, в Пензенской и Саратовской областях – до 15 мм, в Ульяновской области – до 17 мм. Синоптики говорят, что интенсивные снегопады продолжатся. За это время в регионе может выпасть до

полумесячной нормы осадков, а высота снежного покрова может утроиться. Как называется географический район России, о котором идет речь в тексте? Если ли в этом географическом районе города миллионеры, назовите их? Почему снегопады так нужны в этом регионе? Назовите не менее двух причин.

А) Географический район	Приволжье 2
Б) Города-миллионеры	Волгоград, Пенза, Нижн. Новгород, Ульяновск, Саратов 3
В) Причины необходимости снегопадов:	почва, питание рек 1

Задание 2.

Этот ученый прожил очень короткую, полную лишений и опасностей жизнь. Он настолько опередил свое время в методах научных исследований, в осмыслении путей развития человеческой цивилизации, что многие современники не воспринимали его всерьез. И хотя оставленное им колоссальное научное наследие было введено в оборот с огромным опозданием, спустя десятилетия после его ухода из жизни, большинство работ ученого не потеряло актуальности и до сих пор. А многие его мысли о единстве человечества и сейчас кажутся делом отдаленного будущего.

Перед вами карта его путешествий, определите, о каком путешественнике идет речь, и ответьте на ряд *вопросов (максимальное количество баллов за задание - 20).*

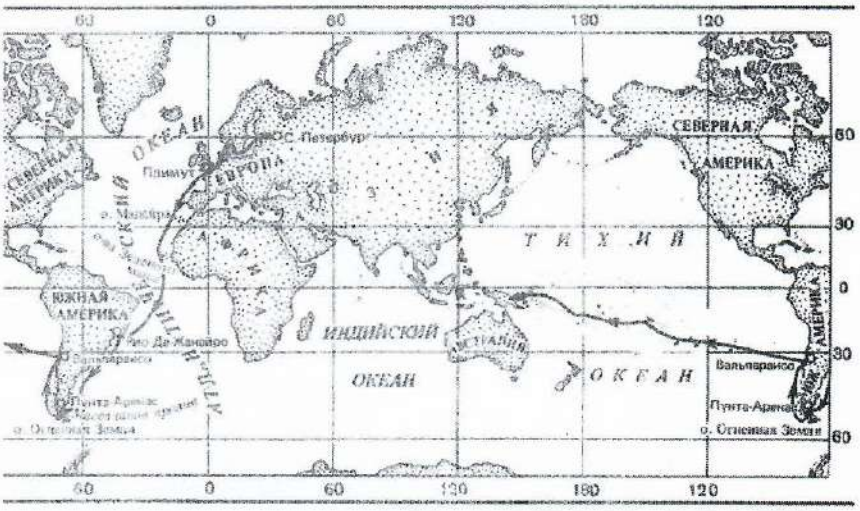

1. Назовите этого путешественника
Васко Да Гама

2. Какой остров стал объектом его исследования? ~~Океания~~ Новая Зеландия 0

3. Какой народ активно изучал путешественник? ~~Аы~~ Австралийцев 0

4. Родился путешественник недалеко от города - районного центра, сейчас известного производством огнеупорных материалов из своих ресурсов. О каком городе идет речь? _____

5. Согласно семейному преданию, приставка к фамилии появилась благодаря одному воинственному предку путешественника. Из какой страны происходил этот предок?
немец 0

6. Когда отмечалось 150-летие со дня рождения путешественника, ЮНЕСКО назвало его Гражданином мира. В этом же году на территории Университета одного иностранного города был установлен бюст ученого. На территории какого города находится этот памятник? _____

7. В каком году произошла высадка путешественника в заливе исследуемого острова? 1743

8. Как называли путешественника островитяне, предполагая его мистическое, "внеземное" происхождение? чужеземец

9. Именем ученого названа одна из почетнейших наград этого общества. О каком обществе идет речь? _____

10. День рождения этого ученого стало в России днем целой профессии. О какой профессии идет речь? географа

Задание 3.

На снимках представлены планировочные структуры городов России. Изучив их, назовите не менее 3 географических факторов, определивших особенности планировочной структуры каждого из них.

Волгоград



1. Наличие рек, моря
2. Почва
3. Клим. усл.

Москва



Новороссийск



Задание 4. Определите по описанию название горы

1	Останец Пятигорья, название происходит от тюркских слов. Гора имеет пять вершин. Ее и 12 окружающих ее вершин называли Лошадиными горами.	Бештау
2	Вторая по высоте, после Бештау, гора-останец Пятигорья	Машук
3	Гора-останец близ города Минеральные Воды. Название, возможно, произошло из-за серии узких извилистых оврагов, прорезавших восточный склон горы, напоминавших змей.	Змейка
4	Останцовая магматическая гора в Пятигорье, на Кавказских Минеральных Водах. Высота 884,7 м. Памятник природы	Машук
5	Наибольшая, в пределах Ставропольского края, вершина Скалистого хребта. Наименование происходит от тюркских слов: «бурма»-нога и «быт»- мыт	Бурнабой

Тест. 19.

Зн. 1 ~~2б~~ 15

Зн. 2 ~~14~~ 0б

Зн. 3 ~~18~~ 1б

Зн. 4 6б

41б